2008 年国家公务员录用考试《行测》真题

注意事项

1. 行政职业能力测验共有五个部分，140 道题，总限时是 120 分钟。各部分不分别计时，但都给出了参考时限，供答题时参考。

2. 将姓名与准考证号在指定的位置上用黑色字迹的钢笔、签字笔或者圆珠笔填写，并用 2B 铅笔在准考证号对应的数字上填涂。

3. 请将题本上的条形码揭下，贴在答题卡指定位置。没有贴条形码的答题卡将按作废处理，成绩记为零分。

4. 题目应在答题卡上作答，在题本上作答一律无效。

5. 待监考老师宣布考试开始后，你才可以开始答题。

6. 监考老师宣布考试结束时，你应立即停止作答，将题本、答题卡和草稿纸都翻过来放在桌子上，待监考老师确认数量无误，发出离开指令后，方可离开考场。

7. 试题答错不倒扣分。

8. 严禁折叠答题卡。

老吴公考 App

刷题、听课、看秘笈，一网打尽！

支持 iphone、iPad 和 Android 手机

第一部分　言语理解与表达

（共 40 题，参考时限 30 分钟）

本部分中每道题包含一段话或一个句子，后面是一个不完整的陈述，要求你从四个选项中选出一个来完成陈述。注意：答案可能是完成对所给文字主要意思的提要，也可能是满足陈述中其他方面的要求，你的选项应与所提要求最相符合。

请开始答题：

1．在古典传统里，和谐的反面是千篇一律："君子和而不同，小人同而不和"，所以和谐的一个条件是对于多样性的认同。中国人甚至在孔子之前就有了对于和谐的经典认识与体现。中国古代的音乐艺术很发达，特别是一些中国乐器，像钟、磬、瑟等各种完全不同的乐器按照一定的韵律奏出动听的音乐，但如果只有一种乐器就会非常单调。

对这段文字概括最准确的是：（　）

A．和谐源于中国古典音乐　　B．差异是和谐的必要条件

C．中国人很早产生了和谐观念　　D．音乐是对和谐的经典认识和体现

【解析】B。材料中"所以和谐的一个条件是对于多样性的认同"是关键句，选项 A 和 D 错误，材料中关于音乐和乐器都是证明观点的材料；选项 C 主体错误。

2．"黑马"一词其实是从英语舶来的，原指体育界一鸣惊人的后起之秀，后指实力难测的竞争者或在某一领域独树一帜的人，无贬义或政治含义。首先在英文中使用"黑马"的人，是英国前首相狄斯累利，他在一本小说中这样描写赛马的场面："两匹公认拔尖的赛马竟然落后了，一匹'黑马'，以压倒性优势飞奔。看台上的观众惊呼：'黑马！黑马！'"从此，"黑马"便成了一个有特殊意义的名词。

这段文字的主要意思是：（　）

A．论证"黑马"词义的起源　　B．阐释"黑马"一词的内涵

C．分析"黑马"词义的演变　　D．介绍"黑马"的感情色彩

【解析】A。材料介绍的主要是关于"黑马"一词的来源问题，即在一次体育比赛中一匹黑色的马意外胜出。并未牵涉这个词的演变过程。

3．中国的沙漠的确为世界上的科学家提供了与火星环境最为相似的实验室。科学家们已经去过了地球上最为寒冷的南极洲，也去过了地球上最为干燥的智利阿塔卡马沙漠，但他们真正需要的是将这两者结合起来的极端环境。

这段文字意在说明：（　）

A．中国沙漠为外星研究提供理想场所　　B．中国沙漠比南极洲更适合进行生物研究

C．科学家为何选择中国沙漠作为研究对象　　D．具有最极端的环境是中国沙漠的主要特点

【解析】A。选项 B 在材料中找不到依据；选项 C"为何"在材料中没有明确交代；选项 D 主体错误。材料第一句是关键句，开始就表明了材料的主旨，这段话的意思是说：中国沙漠给世界科学家提供了类似火星的极端环境。

4．中国古人将阴历月的大月定为 30 天，小月定为 29 天，一年有 12 个月，即 354 天，比阳历年少了 11 天。怎么办呢？在 19 个阴历年里加 7 个闰月，就和 19 个阳历年的长度几乎相等。这个周期的发明巧妙地解决了阴阳历调和的难题，比希腊人梅冬的发明早了 160 年。

这段文字主要阐明的是：（　）

A．古代阴历中闰月设置的规律与作用

B．中国古代历法在当时有先进水平

C．阴阳历调和问题在古代是个世界性问题

D．中国古代如何解决阴阳历差异问题

【解析】D。选项 A 主体理解错误，材料主要不是在讨论闰月本身；选项 B 不是材料的主要目的；选项 C 在材料中没有明确表述。材料中先提出问题："怎么办呢？"然后回答了问题。

5．湿地指的是陆地和水体之间的过渡带，和森林、海洋一起并称地球三大生态体系，在维护生物多样性、调节气候，抵御洪水等方面起着重要作用。1998 年那次长江大洪水让人们终于意识到湿地（尤其是和长江相通的许许多多湖泊和沼泽地）能够对洪水起到缓冲的作用。可是，许多湖泊因为围湖造田的需要而被人为隔离了，只留下一个很少开启的水闸和长江相通。于是，这些自然形成的水网被拦腰斩断，遇到洪水便无能为力了。

这段文字意在说明：（　）

A．围湖造田是一项弊大于利的错误举措

B．占用湿地是造成长江洪水的重要因素

C．人类应该反省自身行为对环境的破坏

D．应该充分发挥湿地对洪水的缓冲作用

【解析】D。选项 A 主体错误，材料的重点不是针对围湖造田发表看法；选项 B 过于绝对化；选项 C 太宽泛，材料用事实证明了湿地对防洪有重要作用。

6．作为一个拥有五千年不间断文明史的古国，我国拥有十分丰富的非物质文化遗产。这些活态的文化不仅构成了中华民族深厚的文化底蕴，也承载着中华民族文化渊源的基因。但随着我国现代化建设的加速，文化标准化以及环境条件的变化，尚有不计其数的文化遗产正处于濒危状态，它们犹如一个个影子，随时都可能消亡。

对这段文字概括最准确的是：（　）

A．文化遗产保护工作要有新思路

B．要重视现代化建设带来的新问题

C．新形势下亟须加强文化遗产保护

D．诸多因素威胁着文化遗产的生存状态

【解析】D。选项 A 主体不对，材料没有谈到"新思路"；选项 B 太宽泛笼统；选项 C 是根据材料得出的推论，不是对材料本身的概括。

7．能源价格高并非全是坏事，因为价格杠杆自会调节石油的流向，确保人类以剩下的石油找到更好的新能源，而不是全用到几十年前根本不存在的使夏天变凉爽的能源需求上。实际上，如果我们遵循价格杠杆，甚至无需教育消费者，人人都会做出理智的选择。那些价格杠杆不起作用的地方，多是机制本身有问题的地方，改进机制，才能使价格杠杆更有效。

这段文字的核心观点是：（　）

A．改革体制是充分发挥价格杠杆作用的前提

B．能源的无谓浪费问题应该受到应有的重视

C．提高能源价格有利于合理利用与节约能源

D．要充分发挥价格杠杆调节能源流向的作用

【解析】C。材料主要表述的是价格杠杆的调节作用，AB 项都理解错误，没有把握材料主旨；材料开始就说明了“能源价格高并非全是坏事，因为……”，这就是材料的观点，后面关于价格杠杆的论述不能说是文章的观点，而是证明文章的观点的。

8．商业设计也许越来越被赋予艺术创作和欣赏的价值，但它根本的出发点和落脚点永远是把产品的特质用艺术的方式展现给顾客。如果一项商业设计不能让人联想到产品并对之产生好感，即使它再精美、再具创意，也不能算是成功的设计。说到底，广告在创意之外最重要的还是关联性，我们不想被一个美轮美奂的作品吸引，结果却看不出它与所代言的商品之间存在任何联系。

对这段文字概括最准确的是：（ ）

A．独特的创意并非成就商业设计的绝对要素

B．对于设计来说，吸引顾客应该是第一位的

C．成功的设计必须能够艺术地展现产品特质

D．商业设计应尽量强调广告与产品的关联性

【解析】C。选项 A 主体不对，材料不是在谈“创意”；选项 B 把“吸引顾客”放在第一位，与材料原意不符；选项 D 仅仅强调“关联性”与材料强调重点不符。材料第一句后半句（转折后面）是关键句，强调的是商业设计应该“把产品的特质用艺术的方式展现给顾客”，所以选 C。

9．中国消费信贷市场的现状，使得对中国银行业投入巨资的西方银行在信用卡业务上仍是投资，没有盈利。不过，外资银行对中国信用卡市场并没有失掉信心。虽然中国的消费者没有透支消费的习惯，而这个“硬币”的另一面是中国居民的个人负债率很低，中国内地的个人消费信用市场才刚刚开始发展，这对外资银行是极具吸引力的。

这段文字中的“硬币”指代的是：（ ）

A．中国银行业　　B．中国消费信贷市场

C．中国消费者的消费习惯　　D．中国居民的经济状况

【解析】C。从“虽然中国的消费者没有透支消费的习惯，而这个“硬币”的另一面是中国居民的个人负债率很低”可以看出，在“硬币”所处的这个转折复句中，讨论的主语应该是“中国消费者的消费习惯”，其一面是中国的消费者没有透支习惯，另一面是个人负债率很低。

10．“缩略”是赶路人与时间搏斗的一种方式。也许，赶路人自有不得不缩略的苦衷，其中也许不乏积极因素，但从根本上说，所谓缩略．就是把一切尽快转化为物，转化为钱，转化为欲，转化为形式，直奔功利而去。缩略的标准是物质的而非精神的，是功利的而非审美的，是形式的而非内涵的。缩略之所以能够实现，其秘诀在于把精神性的水分一点点挤出去，像压缩饼干似的，卡路里倒是足够，滋味却没有了。对一次性的短暂人生来说，这不能不说是一种遗憾。

这段文字着重抒发怎样的感慨？（ ）

A．急于实现目标，必然付出代价　　B．淹没在物欲中的人生是枯燥无味的

C．人们只重目的，忽略了过程的享受　　D．时间可以转化为钱，却无法转化为美

【解析】B。选项 A“付出代价”之说在材料中找不到依据；选项 C 是感慨的对象而不是感慨的内容本身；选项 D 主体不对。本题的问题和要求特别值得注意，要求回答的是材料抒发了“怎样的感慨”，即要求回答的是作者的“感慨是什么”，而不是“对什么发生感慨”。

11．将以下 6 个句子重新排列组合：

① 任何心理活动，任何创作，也许都具有“一次性”。

② 揣度别人是很困难的。子非鱼，安知鱼之乐？

③ 作者的回顾，事后的创作谈，能在多大程度上与实际创作情状复合，是值得怀疑的。

④ 甚至揣度自己也未见得容易多少。

⑤ 人不能把脚两次伸进同一条河里。

⑥ 比方说这篇小说写过这么久了，尽管我现在能尽力回忆当时写作的心境，但时过境迁，当时的心境是绝对不可能再完整准确地重现了。

排列组合最连贯的是：（ ）

A．③⑥⑤②④①　　B．⑤①⑥③②④

C．①⑥③⑤②④　　D．②④⑥③⑤①

【解析】D。句①是作者的结论，其他句子是得出结论的依据。这一结论是对“心理活动”和“创作活动”二者的结论，循着这一顺序和思路看其他句子，则句②④说的是心理活动，③⑥说的是创作活动，则可知举个材料的顺序是：先谈心理活动②④，后谈创作活动⑥③，再用众所周知的哲理⑤作佐证，最后得出自己的结论①。

12．歌德评价帕格尼尼“在琴弦上展现了火一样的灵魂”。巴黎人为他的琴声陶醉，忘记了当时正在流行的霍乱。在维也纳，一个盲人听到他的琴声，以为是一个乐队在演奏，当得知这只是一个叫帕格尼尼的意大利人用一把小提琴奏出的声音时，盲人大叫一声：“这是个魔鬼！”

这段文字意在强调帕格尼尼：（ ）

A．火一样的激情　　B．魔鬼般的演奏

C．超强的模仿力　　D．高超的表演力

【解析】D。选项 A 主体错误，材料并没有仅仅强调他的“激情”；选项 B 的“魔鬼”说不是所有人的感觉；选项 C 中的“模仿力”在材料中找不到依据。材料中无论是歌德、巴黎人还是维也纳的盲人，都被帕格尼尼的小提琴演奏表演征服，强调的是他高超的表演力。

13．费孝通在反思一生学术研究时，提出“文化自觉论”。他说：“生活在一定文化中的人对其文化有‘自知之明’，明白它的来历、形成的过程、所具有的特色和它发展的趋向，自知之明是为了加强文化转型的自主能力，取得决定适应新环境、新时代文化选择的自主地位。”

根据这段文字，“文化自觉”的主要作用是：（ ）

A．使文化的发展方向更为可控

B．使人们能更加适应不断发展的文化

C．使人们更深刻地了解文化的来源和特点

D．使不同文化之间的融合和转变更为容易

【解析】A。之所以要对文化有自知之明，为的就是要尽可能把握文化发展的方向，也即选项 A 所含之意。

14．一个年轻人寄了许多份简历到一些广告公司应聘，其中有一家公司写了一封信给他："虽然你自认为文采很好，但从你的来信中，我们发现了许多语法错误，甚至有一些错别字。"这个青年想如果这是真的，我应该感谢他们告诉我，然后改正。于是他给这个公司写了一封感谢信。几天后，他再次收到这家公司的信函，通知他被录用了。

这段文字主要想告诉我们：（　）

A．机会往往在不经意获得　　B．公司招聘时更看重求职者的态度

C．谦虚能获得更多知识和别人的尊重　　D．良好的文字功底是成功求职的前提

【解析】C。年轻人在收到对方略带讽刺的信之后仍旧写感谢信给对方，显然是由于其谦逊的态度改变了对方最初的决定。选项 BD 均属于就事论事，而选项 A 所说机会在"不经意"中获得，显然与题干倾向不符。

15．气候变暖将会使中纬度地区因蒸发强烈而变得干旱，现在农业发达的地区将退化成草原，高纬度地区则会增加降水，温带作物将可以在此安家。但就全球来看，气候变暖对世界经济的负面影响是主要的，得到好处的仅是局部地区。

这段文字旨在说明气候变暖：（　）

A．会使全球降水总量减少　　B．对局部地区来说利大于弊

C．将给世界经济带来消极影响　　C．将导致世界各国农业结构发生变化

【解析】C。题干的叙述多数都是在阐述气候变暖的不利因素，也即选项 C 所说的"消极影响"。

16．华盛顿国立气象研究所的墙上有这么一句话："当我们做对了，没有人会记得；当我们做错了，没有人会忘记。"

气象研究所的墙上写这句话的目的是：（　）

A．希望人们多理解气象工作的困难和苦衷

B．督促员工致力于杜绝工作中的任何差错

C．劝勉员工甘于默默无闻、不计个人名利

D．突出气象研究工作本身所具有的特殊性

【解析】B。既然这句话贴在研究所的墙上，那么自然而然是为了给员工看，而且这句话的内容显然也是为了告诉员工气象工作的重要性，起的是对员工的督促作用。

17．虽然黑猩猩和人类的进化史大约有 99.5％是共同的，但大多数思想家把黑猩猩视为与人类毫不相干的怪物，而把自己看成是万物之主。对一个进化论者来说，情况绝非如此。认为某一物种比另一物种高尚是毫无客观依据的。不论是黑猩猩和人类，还是蜥蜴和真菌，都是经过长达 30 亿年的所谓自然选择这一过程进化而来的。

这段文字意在阐明：（　）

A．大多数思想家并不理解进化论的思想

B．真正的思想家应对所有物种一视同仁

C．所有物种事实上都是自然选择的结果

D．黑猩猩与人类的进化史实际极为相似

【解析】C。材料中"认为某一物种比另一物种高尚是毫无客观依据的"直接的反驳了大多数思想家把自己看作是万物之主的说法，然后举例说明了"不论是黑猩猩和人类，还是蜥蜴和真菌，都是经过长达 30 亿年的所谓自然选择这一过程进化而来的。"

18．几次拿起《十字路口的顽童》这本书，几次又放下，因为不时会有画面打断我的思路，那是在我18 年的教书生涯中遇到的一个个顽童的画面。有意思的是，其他学生凝固在我记忆中的是“图片”——形象；而他们却是”视频”——故事，他们所占据的老师“内存”实在是比其他孩子要大得多。

这段文字表达的主要意思是：（ ）

A．漫长的教学生涯给“我”留下很多回忆

B．顽童让“我”想起曾经发生的许多故事

C．顽皮学生留给“我”的印象更为生动深刻

D．这本书触动“我”对教学生涯的许多联想

【解析】C。题干叙述的主要内容是关于顽皮学生和其他学生之间的比较，顽皮学生占据老师记忆的更多“内存”，以“视频”形象出现，显然都是为了表述他们形象更为生动深刻的观点。

19．汽车是对环境影响较大的商品，汽车厂商支持环保事业、进行环保宣传，似乎是理所应当的。环保应当是汽车企业在发展中必须认真考虑的因素，但要求汽车企业没有利润甚至亏损来做环保，显然是不现实的，而且也不会持久。汽车企业在发展的同时采取新的技术措施，尽量减少对环境的污染，符合社会发展大趋势，才是长久之策。

这段文字的核心观点是：（ ）

A．环保与实现企业利润存在矛盾

B．发展环保事业应该注重从实际出发

C．技术革新是解决汽车影响环境问题的关键

D．汽车企业应在发展的同时充分重视环境保护

【解析】C。如何实现汽车利润与环保的双重效果，这是题干的主要内容，而这个途经最终归结为技术的革新。

20．20 世纪 60 年代以前，世界各国普遍注重防洪的工程措施，即通过修建大堤、水库等水利设施对洪水进行控制。但在 60 年代以后，世界各国在防洪规划中越来越重视非工程措施的运用，即通过洪水预警、灾情评估、洪灾保险等多种手段，结合各种工程措施．从而尽可能减少洪灾对人类经济、环境和社会发展的影响。

这段文字主要谈的是：（ ）

A．世界各国防洪理念的转变　　B．世界各国控制洪水的新途径

C．单纯重视防洪工程不能有效控制洪水　　D．非工程措施逐渐成为防洪规划的主导

【解析】A。题干分为两个部分，“20 世纪 60 年代以前”，“60 年代之后”，这两部分的叙述具有明显比较的意思，也即阐述防洪理念转变的过程。

21．建设资源节约型、环境友好型社会要注意_____，目前要着重解决影响社会经济发展，特别是严重危害人民群众健康的水污染、空气污染加剧问题。

填入划横线部分最恰当的一项是：（ ）

A．可持续性　　B．轻重缓急　　C．孰轻孰重　　D．先后次序

【解析】B。根据横线后“要着重解决影响……发展”的句意来看，很容易可以选出 B 答案。

22．对一篇规范的论文，因版面限制而去砍综述、删注释，实在是_____的不智之举。

填入划横线部分最恰当的一项是：（ ）

A．削足适履　　B．扬汤止沸　　C．矫枉过正　　D．舍本逐末

【解析】A。综述和注释是文章的有机组成部分，纯粹因为版面限制而去“砍、删”，是典型的削足适

履。

23．中华民族一直以其强烈的责任意识享誉世界，在建立市场经济体制的新的历史时期，尤其需要___人们的责任意识，这既是构建社会主义和谐社会的必然_____，也是时代的呼唤。

填入划横线部分最恰当的一项是：（ ）

A．增强 要求 B．提高 结果 C．加强 需要 D．提升 途径

【解析】A。前文表明中华民族“一直”有强烈的责任意识，在新的历史时期则需要进一步“增强”，形成前后呼应；后一横线处填“要求”更明确强烈，且与后文的“呼唤”感情色彩相一致。

24．中国古代数学家对“一次同余论”的研究有_____的独创性和继承性，“大衍求一术”在世界数学史上的崇高地位是不容_____的。正因为这样，在西方数学史著作中，一直公正地称求解一次同余组的剩余定理为“中国剩余定理”。

填入划横线部分最恰当的一项是：（ ）

A．完全 否定 B．明确 忽视 C．绝对 动摇 D．明显 怀疑

【解析】D。第一空 A、C 两选项过于绝对，题干是想从论证的角度来说明中国数学家对“一次同余论”的研究及其成果在世界数学史上的地位勿庸置疑，与勿庸置疑词义最接近的是“怀疑”，而且“明显”一词最符合论证的语言需要。

25．随着广播、电视和报纸等大众传媒进人千家万户、覆盖城乡，其对社会舆论的影响力_____扩大，越来越成为广大群众的主要信息来源，在很大程度上_____着社会舆论。

填入划横线部分最恰当的一项是：（ ）

A．日益 影响 B．逐步 控制 C．渐渐 干扰 D．不断 引领

【解析】A。第一空主要是表达递进的意思，四个选项都有这样的意思。关键看后一空。材料中说到传媒影响力越来越大、成为大众的“主要信息来源”，“干扰”（褒贬色彩不对），也不能是“控制”和“引领”（语义分量过重），夸大了媒体的作用。

26．近现代西方科学与人文两种文化经历了融合、冲突和消解三个时期，反映到教育理念上也相应地经历了科学教育与人文教育的相互_____、越走越远和共同反思三个阶段。这一历史发展表明，过分强调科学文化和科学教育，必然导致对人文的_____；而过分强调人文文化和人文教育，也会带来对科学技术的漠视。

填入划横线部分最恰当的一项是：（ ）

A．渗透 排挤 B．结合 无视 C．渗透 轻视 D．结合 限制

【解析】C。第一空对应前文的“融合”，因此选“渗透”；第二空对应后文的“漠视”，因此选“轻视”。

27．上世纪 60 年代，赞助商的美元滚滚而来，赛车水平和速度_____般地飞跃，同时飞跃的还有车手的_____性。从此，规则制定者的头号任务就是让赛车慢下来。

填入划横线部分最恰当的一项是：（ ）

A．奇迹 技术 B．闪电 危险 C．魔术 冒险 D．戏剧 重要

【解析】B。第一空根据前文赞助“滚滚而来”带来的是水平和速度提高很快，因此选“闪电”；第二空根据后面“慢下来”表明赛车过快影响车手的安全，因此选“危险”。

28．企业到底是不是适合开展连锁经营？能不能开展连锁经营？面对这两个问题，一些企业往往___，发展时机。

填入划横线部分最恰当的一项是：（ ）

A．无所适从　贻误　　B 一筹莫展　痛失

C．举棋不定　耽误　　D．优柔寡断　错过

【解析】A。对问题没有确定答案，不知道该怎么办才好，最贴切的是“无所适从”，与“时机”搭配最恰当的是“贻误”。

29．事实证明：自从资本市场诞生以来，股市从来就不是一个投资场所，_____都是投机者在博弈。股票的价格从来就没有在经济学者理论上的_____价格驻足，更多的是在泡沫和负泡沫之间来回奔波。

填入划横线部分最恰当的一项是：（　）

A．实际　稳定　　B．基本　均衡

C．事实　稳定　　D．本质　均衡

【解析】B。材料并没有绝对化地说股市里都是投机者，因此第一空用“基本”上；“在泡沫和负泡沫之间来回奔波”并不仅仅说股票价格不稳定，更指其价格与正常价值关系失衡，因此用“均衡”。

30．由于古人视彗星出现为不祥，_____对其非常重视，几乎每一次出现都有比较_____的记录。

填入划横线部分最恰当的一项是：（　）

A．因此　隐晦　　B．加之　准确　　C．故而　详细　　D．反而　迷信

【解析】C。第一空前后文存在明显的因果关系，因此答案在 A，C 中选。从文意可看出古人很重视，因此应该记录得很“详细”。

31．一个从小吮吸母文化长大的人一旦来到异国他乡，往往会遭遇“文化冲击”（Culture Shock），有人更_____地译为“文化休克”；这种不适应所在地文化、怀念故国文化的现象，就是乡愁。为了排遣深深的乡思、尽快适应和融人新的环境，大多数人都采取了_____的态度。

填入划横线部分最恰当的一项是：（　）

A．巧妙　事在人为　　B．形象　兼容并蓄

C．生动　入乡随俗　　D．夸张　顺其自然

【解析】B。把“文化冲击”表述为“文化休克”，更具体形象，所以第一空填“形象”；第二空前说为了“排遣乡思”而不是要抛弃母文化，选“兼容并蓄”更准确；选项 A“事在人为”语义不明；选项 C“入乡随俗”是一种行为方式而不是生活态度；选项 D“夸张”不符合语义。

32．有了国内外巨大的价差，石油企业更愿意将成品油销往海外。同时，国际石油投机商也迅速抓住了这个机会，以来料加工为_____，将低价成品油大量出口到境外大赚一笔，这样的情况又造成国内成品油供应紧张，_____了国内油品市场。

填入划横线部分最恰当的一项是：（　）

A．手段　影响　　B．掩护　扭曲　　C．名义　抑制　　D．幌子　牺牲

【解析】B。投机商的“来料加工”只是为其投机作“掩护”；国内成品油供应紧张，表明市场被“扭曲”而不正常了，因此选 B。选项 A“手段”感情色彩不符；选项 C“以……为名义”搭配不当，应该是“以……名义”；选项 D“牺牲了……市场”搭配不当。

33．疯狂扩散的蓝藻起初并没有使人们感到_____。往年正常情况下，它顶多影响太湖的一些景观，不会带来什么骚乱。雨季一来，这些小生物会被大量的雨水冲刷稀释，人们会渐渐_____它，直到第二年的来临。还有一些农民把它们捞起来当肥料，_____地称之为“海油”。

填入划横线部分最恰当的一项是：（　）

A．焦虑　淡忘　亲切　　B．担忧　漠视　形象

C．异样　适应　生动　　D．奇怪　习惯　幽默

【解析】B。突破点在第三空，把粘稠的蓝藻称为“海油”，是一种“形象”化的表述；选项 A 中的“亲切”和选项 D 中的“幽默”与材料感情色彩不符；选项 C“生动”与句意不符。

34．在当代，发展的竞争归根到底取决于人口素质。谁人口素质高、人力资本_____，谁就占据先机，谁就会走在发展的_____；谁人口素质低、人力资本_____不够，谁就会丧失发展的机遇，跟不上时代前进的步伐。

填入划横线部分最恰当的一项是：（ ）

A．丰富 前沿 累积　　B．充足 前锋 积累

C．强大 前端 聚集　　D．雄厚 前列 积聚

【解析】D。“资本”用“雄厚”形容比较恰当；“走”在发展的（队伍）的“前列”；“人力资本”依靠的是“积聚”。

35．水资源_____不是能够无限供给的，可持续发展的_____应当是建立污水回收系统，循环利用。多数城市的污水处理率还较低，污水处理费仅是自来水水费的一半左右，而仅凭_____我们就能判断，使污水重新进入城市水源循环的费用一定比采集清洁水的费用高得多

填入划横线部分最恰当的一项是：（ ）

A．自然 目标 想象　　B．既然 途径 观察

C．显然 思路 直觉　　D．当然 基础 常识

【解析】C。选项 A、B 很容易可以排除，A 项中建立污水回收系统肯定不可能是可持续发展的“目标”，B“既然”搭配不当，根据“仅凭”与“直觉”搭配较合适，可以排除 D。

36．在为学（不管学什么）的道路上，_____来说，并不存在可以_____的“捷径”；但是，我们却_____避免或者少走弯路。这就需要有人给初学者指点门径，告诉他们正确的学习方法和步骤。

填入划横线部分最恰当的一项是：（ ）

A．一般 一蹴而就 应该　　B．目前 一帆风顺 能够

C．总体 平步青云 尽量　　D．客观 唾手可得 必须

【解析】A。第二空与“捷径”相对的只有“一蹴而就”最为合适。

37．10 年过去了，1997 年泰株大幅贬值诱发的东南亚金融危机给整个地区带来的痛楚和无奈似乎还_____。发生在泰国的危机竟然波及整个东南亚地区，对泰株汇率的“矫正”迅速_____为地区金融危机，至今仍让人_____ 。

填入划横线部分最恰当的一项是：（ ）

A．记忆犹新 蔓延 扼腕叹息　　B．恍如昨日 扩展 谈虎色变

C．历历在目 演变 心存余悸　　D．历久弥新 衍生 不寒而栗

【解析】C。“扼腕叹息”感情色彩明显不符，“恍如昨日”过于强调时间，与文意不符，“历久弥新”带有赞赏的意思，用在此形容金融危机显然不适合。

38．不同管理层次、不同岗位上的人员，不管其工作内容有多大的_____，均有其工作的目标和重点。我们必须_____目标，抓住重点，有所取舍，集中_____做属于我们该做的事。

填入划横线部分最恰当的一项是：（ ）

A．差距 制定 物力　　B．差别 明确 精力

C．区别 实现 财力　　D．差异 确定 人力

【解析】B。“明确目标、集中精力”是最常用的搭配。

39．在这种人才供需状况下，简单地把市场当时_____不了的东西弄到某种库房里暂时存放，_____它的上市时间，显然不是解决问题的办法，_____你能把它们在库房里放一辈子。问题的关键其实在于，你得能让这些人在出库时正好避开供大于求的行业，最好还落在供不应求的行业中。

填入划横线部分最恰当的一项是：（　）

A．接受　预测　似乎　　B．容纳　改变　或许

C．转化　控制　既然　　D．消化　拖延　除非

【解析】D。第三空是关键，根据语气可以判断这是一种不可能的假设，只能选“除非”。

40．作为一个公司领导，不需要、也不可能事必躬亲，但一定要_____，能够在注重细节当中比他人观察得更细致、_____，在某一细节的操作上做出榜样，并形成_____，使每个员工都不敢马虎，无法_____。只有这样，企业的工作才能真正做细。

填入划横线部分最恰当的一项是：（　）

A．明察秋毫　周密　威慑力　搪塞　　B．明辨是非　周详　使命感　推脱

C．抓大放小　透彻　好习惯　塞责　　D．高瞻远瞩　入微　内聚力　敷衍

【解析】A。第一空与后文联系看，强调的是观察细致，因此填“明察秋毫”；第二空与“细致”相结合共同作“观察”补语最恰当的是“周密”；第三空领导形成了“威慑力”，员工自然就无法“搪塞”。

第二部分　数量关系

（共 20 题，参考时限 20 分钟）

一、数字推理。给你一个数列，但其中缺少一项，要求你仔细观察数列的排列规律，然后从四个供选择的选项中选择你认为最合理的一项，来填补空缺项，使之符合原数列的排列规律。

请开始答题：

41．157，65，27，11，5，（　）

A．4　　B．3　　C．2　　D．1

【解析】D。第一项等于第二项乘以 2 加第三项，依次类推。

42．

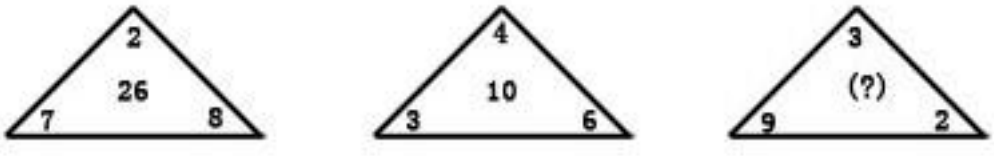

A．12　　B．14　　C．16　　D．20

【解析】C。左下角和右下角两个数的和减去顶角的数然后乘以 2 就得到中间的数。

43．1，$\frac{2}{3}$，$\frac{5}{8}$，$\frac{13}{21}$，（　）

A．$\frac{21}{33}$　　B．$\frac{35}{64}$　　C．$\frac{41}{70}$　　D．$\frac{34}{55}$

【解析】D。每项的分子都是由前一项的分子分母相加得到的，所以未知项的分子应为$13+21=34$。

44．67，54，46，35，29，（　）

A．13　B．15　C．18　D．20

【解析】D。两两之和得到 121、100、81、64、49。分别是 11，10，9，8，7 的平方。

45．14，20，54，76，（　）

A．104　　B．116　　C．126　　D．144

【解析】C。14，20，54，76 分别是 3、5、7、9 的平方加减 5，所以未知项应该是$11^2+5=126$。

二、数学运算。在这部分试题中，每道试题呈现一段表述数字关系的文字，要求你迅速、准确地计算出答案。你可以在草稿纸上运算。

请开始答题：

46．若x，y，z是三个连续的负整数，并且$x>y>z$，则下列表达式是正奇数的是：（　）

A．$yz-x$　　B．$(x-y)(y-z)$　　C．$x-yz$　　D．$x(y+z)$

【解析】B。B 选项的值唯一确定，恰好为 1，符合题目要求。选项 A 和 D 可能为偶数，也可能为奇数，选项 C 为负数。

47．已知$\frac{1}{1+\frac{1}{3+\frac{1}{x}}}=\frac{9}{11}$，那么$x$的值是：（　）

A．$\frac{1}{2}$　　B．$\frac{2}{3}$　　C．$\frac{3}{2}$　　D．1

【解析】B。从两个方向求解都能得到正确结果：或者解方程，或者带入法求解。解得$x=\frac{2}{3}$。

48．{a_n}是一个等差数列，$a_3+a_7-a_{10}=8$，$a_{11}-a_4=4$，则数列前 13 项之和是：（　）

A．32　　B．36　　C．156　　D．182

【解析】C。数列前 13 项的和可以由其中间项第 7 项求得。由$a_{11}-a_4=4$得到$a_{10}-a_3=4$，又因为$a_3+a_7-a_{10}=8$，则$a_7=12$，所以前 13 项的和为：$12\times13=156$。

49．相同表面积的四面体，六面体，正十二面体以及正二十面体，其中体积最大的是：（　）

A．四面体　　B．六面体　　C．正十二面体　　D．正二十面体

【解析】D。相同表面积的物体，球的体积最大，正二十面体更接近球体。相同周长的图形，圆所占面积最大。

50．一张面积为 2 平方米的长方形纸张，对折 3 次后得到的小长方形的面积是：（　）

A．$\frac{1}{2}$m²　　B．$\frac{1}{3}$m²　　C．$\frac{1}{4}$m²　　D．$\frac{1}{8}$m²

【解析】C。每次对折后面积为原来的一半，因此小长方形的面积是$\frac{1}{2^3}\times 2=\frac{1}{4}$。

51．编一本书的书页，用了 270 个数字（重复的也算，如页码 115 用了 2 个 1 和 1 个 5，共 3 个数字），问这本书一共有多少页？（　）

A．117　　B．126　　C．127　　D．189

【解析】B。前 9 页用去 9 个数字；10 到 99 页用去 2×90=180 个数字，三位数的页码用去的数字个数为：270-180-9=81，每页用去 3 个数字，因此三位数的页码一共有：81÷3=27 页。从 100 页开始，到 126 页，恰好有 27 页。

52．5 年前甲的年龄是乙的三倍，10 年前甲的年龄是丙的一半，若用 y 表示丙当前的年龄，下列哪一项能表示乙的当前年龄？（　）

A．$\frac{y}{6}$＋5　　B．$\frac{5y}{3}$＋10　　C．$\frac{y-10}{3}$　　D．3y－5

【解析】A。假设甲的年龄为 A，乙的年龄为 B，则根据题意：$A-5=3(B-5)$，$A-10=\frac{1}{2}(y-10)$，解得 $B=\frac{y}{6}+5$。

53．为节约用水，某市决定用水收费实行超额超收，标准用水量以内每吨 2.5 元，超过标准的部分加倍收费。某用户某月用水 15 吨，交水费 62.5 元，若该用户下个月用水 12 吨，则应交水费多少钱？（　）

A．42.5 元　　B．47.5 元　　C．50 元　　D．55 元

【解析】B。

解法一：如果该用户 15 吨水全部都交 5 元钱/吨，则他应当交 75 元水费，比实际缴纳额少了 12.5 元。少缴纳的 12.5 元是因为未超出标准用水量的部分每吨少缴纳 2.5 元。因此标准水量为：12.5÷2.5＝5 吨。所以应交水费为 5×2.5+（12－5）×5＝47.5 元。

解法二：本题只要知道标准用水是多少，然后看用水 12 吨是否超标，通过解法一可知 12 吨用水也是超标的，那应当比用水 15 吨少缴纳：3×5＝15 元，因此有：62.5－15＝47.5 元。

54．某零件加工厂按照工人完成的合格零件和不合格零件支付工资，工人每做出一个合格零件能得到工资 10 元，每做一个不合格零件将被扣除 5 元，已知某人一天共做了 12 个零件，得工资 90 元，那么他在这一天做了多少个不合格零件？（　）

A．2　　B．3　　C．4　　D．6

【解析】A。

解法一：假设有 x 个不合格的零件，那么合格零件就有（$12-x$）个。根据题意 10×（$12-x$）－5x＝90 解得，$x=2$。

解法二：本题用代入法求解也非常快捷。得到工资 90 元，所以合格零件数不会小于 9，排除 C、D；选项 2、3 代入，很容易得到答案 A。

55．小华在练习自然数求和，从 1 开始，数着数着他发现自己重复数了一个数。在这种情况下，他将所数的全部数求平均，结果为 7.4，请问他重复的那个数是：（　）

A．2　　B．6　　C．8　　D．10

【解析】B。假设小华对 n 个数进行了求和，那么根据整数的要求 $7.4\times n$ 一定为整数，因此 n 的尾数只能是 0 或者 5。

如果 $n=10$，则 1 至 10 的和为 55，而如果重复的数字出现在 1 至 9 之间，那么这 10 个数的和一定小于 55，它们的平均数小于 5.5。

如果 $n=20$，则其平均数超过 8.5，因为 1 至 19 的和为 190，而如果重复出现的数字出现在 1 至 19 之间，那么这 20 个数的和一定大于 190，它们的平均数大于 8.5。

因此，n 只能为 15。从 1 到 14，这 14 个数的和为 105，而这 15 个数的和为 $7.4\times 15=111$。所以，小华多数的数字为 $111-105=6$。

56．共有 100 个人参加某公司的招聘考试，考试内容共有 5 道题，1～5 题分别有 80 人，92 人，86 人，78 人，和 74 人答对，答对了 3 道和 3 道以上的人员能通过考试，请问至少有多少人能通过考试？（　）

A．30　　B．55　　C．70　　D．74

【解析】C。考虑未被答对的题目总数为（100－80）+（100－92）+（100－86）+（100－78）+（100－74）＝90，由于必须错误 3 道或者 3 道以上才能够不通过考试，因此最不理想的情况就是这 90 道试题恰好是有 30 个人，每个人错误 3 道试题。这样，能够通过考试的人为 100－30＝70 人。

57．一张节目表上原有 3 个节目，如果保持这 3 个节目的相对顺序不变，再添进去 2 个新节目，有多少种安排方法？（　）

A．20　　B．12　　C．6　　D．4

【解析】A。3 个节目有 4 个空位，用插空的方法安排新节目，4 个空位插 1 个节目有 4 种方法，再插 1 个节目有 5 种方法，总共有 20 种。

58．某商场促销，晚上八点以后全场商品在原来折扣基础上再打 9.5 折，付款时满 400 元再减 100 元，已知某鞋柜全场 8.5 折，某人晚上九点多去该鞋柜买了一双鞋，花了 384.5 元，问这双鞋的原价为多少钱？（　）

A．550　　B．600　　C．650　　D．700

【解析】B。设鞋的原价为 x，从选项可以看出付款肯定超过 400 元，所以有 $x\times 0.95\times 0.85-100=384.5$，可以解得 $x=600$。

59．甲、乙、丙、丁四个人去图书馆借书，甲每隔 5 天去一次，乙每隔 11 天去一次，丙每隔 17 天去一次，丁每隔 29 天去一次。如果 5 月 18 日他们四个人在图书馆相遇，问下一次四个人在图书馆相遇是几月几号？（　）

A．10 月 18 日　　B．10 月 14 日　　C．11 月 18 日　　D．11 月 14 日

【解析】D。这道题搞清楚两个事情就容易求解：第一，所谓每隔 n 天去一次的含义是每（n+1）天去一次，因此题目的条件可以变为“甲每 6 天去一次，乙每 12 天去一次，丙每 18 天去一次，丁每 30 天去一次。”第二，需要考虑 5、7、8、10 四个月有 31 天。6、12、18、30 四个数的最小公倍数为 180，因此再过 180 天，四个人才能够再在图书馆相遇，而 180 天后应当是 11 月 14 日。

60．甲、乙、丙三种货物，如果购买甲 3 件、乙 7 件、丙 1 件需花 3.15 元，如果购买甲 4 件、乙 10 件、丙 1 件需花 4.2 元，那么购买甲、乙、丙各 1 件需花多少钱？（　）

A．1.05　　B．1.4　　C．1.85　　D．2.1

【解析】A。

解法一：假设乙的价格为 0，依题意得：$3a+c=3.15$（1），$4a+c=4.20$（2），解得 $a=1.05$，$c=0$。所以 $a+b+c=a=1.05$。

解法二：设甲乙丙需花的钱分别为 a、b、c。依题意得：$3a+7b+c=3.15$（1），$4a+10b+c=4.20$（2），两式相减得到 $a+3b=1.05$，所以 $3a+9b=3.15$（3），由（2）－（3）得到 $a+b+c=1.05$。

第三部分　判断推理

（共 35 题，参考时限 40 分钟）

一、图形推理。请按每道题的答案要求作答。

请开始答题：

61．请从所给的四个选项中，选择最合适的一个填入问号处，使之呈现一定的规律性：

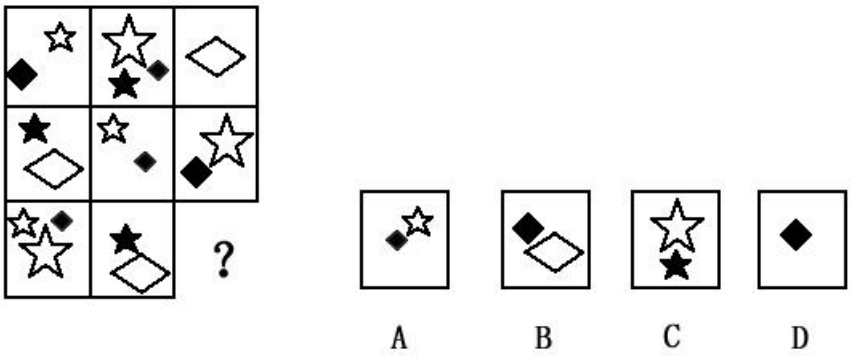

【解析】D。每一行为一组，每组有 6 个不相同的元素组成，很显然，最后一组缺少一个小的实心菱形。

62．请从所给的四个选项中，选择最合适的一个填入问题处，使之呈现一定的规律性：

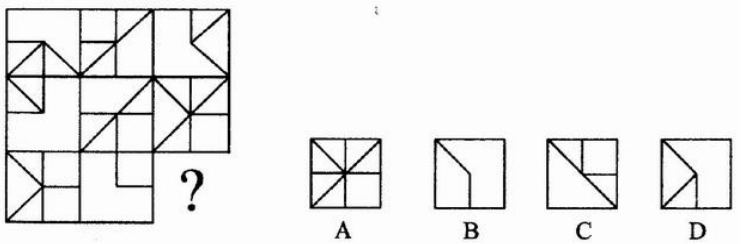

【解析】D。每一行三个图形可以看作是一组。每一组第一个图形和第二个图形重合的部分不显示，从而得到最后一个图形，根据这样的规律可以推出正确答案 D。

63．请从所给的四个选项中，选出最符合左边五个图形一致性规律的选项：（第一章用）



【解析】D。无论题干中是怎样的图形，都没有将圆分割开，只有 D 满足这样的规律。

64．请从所给的四个选项中，选出最符合左边五个图形一致性规律的选项：

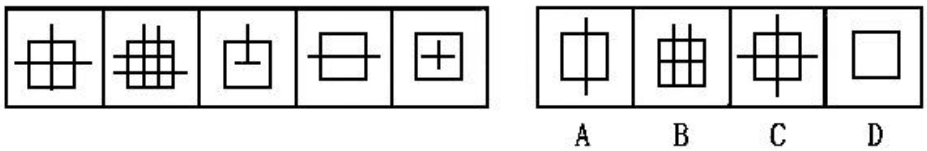

【解析】B。每个图形中最少有一条是横线，而且每个图形中的竖线都没有突破底线。

65．下面四个所给的选项中，哪一选项的盒子不能由左边给定的图形做成：

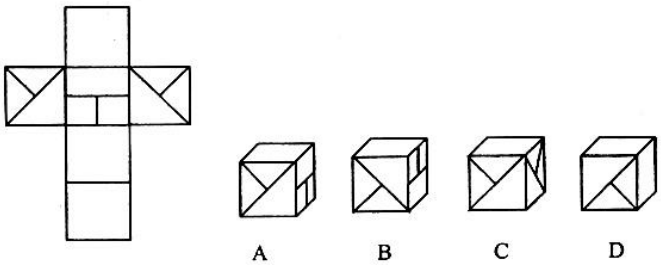

【解析】C。根据展开的图形可以轻易看出：展开图形中的两翼不可能在圈合成正方体之后成为相邻的两个面。

二、定义判断。每道题先给出一个概念的定义，然后分别列出四种情况，要求你严格依据定义，从中选出一个最符合或最不符合定义的答案。注意：假设这个定义是正确的，不容置疑的。

请开始答题：

66．立体农业：是指农作物复合群体在时空上的充分利用。根据不同作物的不同特性，如高秆与矮秆、富光与耐荫、早熟与晚熟、深根与浅根、豆科与禾本科，利用它们在生长过程中的时空差，合理地实行科学的间种、套种、混种、轮种等配套种植，形成多种作物、多层次、多时序的立体交叉种植结构。

根据上述定义，下列属于立体农业的是：（　）

A．甲在自己的玉米地里种植大豆

B．乙在自己承包的鱼塘不但养鱼，还种植了很多莲藕

C．丙在南方某地区承包了十亩稻田，特意引种了高产的水稻新品种

D．丁前年承包了一座山，他在山上种植了大量苹果树，并在山上养殖了大量蜜蜂

【解析】A。立体农业的定义指的是农作物复合群体在时空上的充分利用。B、D 不属于农作物；而 C 不属于“不同时空生长的”；只有 A 项，玉米和大豆属于不同时空生长的农作物。

67．天然孳息：是指按照物质的自然生长规律而产生的果实与动物的出产物，与原物分离前，是原物的一部分。天然孳息，由所有权人取得；既有所有权人又有用益物权人的，由用益物权人取得。当事人另有约定的，按照约定。

根据上述定义，下列不属于天然孳息的是：（　）

A．送给他人的猫崽　　B．从羊身上剪下的羊毛

C．牛被宰杀后发现的牛黄　　D．公园里的柿子树所结的果实

【解析】A。比较 A、B、C、D 四个选项，可以看出，B、C、D 都有原物和出产物，而 A 项没有原物。

68．绿色壁垒：是指一些国家和国际组织通过制定环境标准和法规，为保护生态环境、人类以及动植物生命安全与健康而直接或间接采取的各种限制或者禁止贸易的措施，它是能对进出口贸易产生影响的一种非关税贸易壁垒。

根据上述定义，下列属于绿色壁垒行为的是：（　）

A．某大型连锁超市只销售通过绿色食品检验的进口农产品

B．一家纺织品进出口公司销往欧洲的 10 余吨棉纱因检测出含有德国禁用的偶氮染料而停止出口

C．某公司向国外出口大蒜，因途中货轮上的温控设施出问题，部分大蒜到港后变质，结果所有大蒜被退回

D．一家工厂生产的木质卧室家具在美国市场销售量非常可观，但由于美国提高了木质卧室家具的关税，其出口量大受影响

【解析】B。本定义要点有二：一是根据环境标准和法规而采取的限制或禁止贸易措施；二是非关税的贸易壁垒。据此可知，A、C 项属于正常贸易关系，不是根据环境标准；D 项属于关税壁垒；只有 B 项，出口产品根据环境标准和法规而采取的禁止贸易。

69．失语症：是指由于神经中枢病损导致抽象信号思维障碍，而丧失口语、文字的表达和领悟能力的临床症侯群。

根据上述定义，下列可能患失语症的是：（　）

A．“狼孩”回归社会后无法与人进行言语交流

B．幼时高烧听力受损致使发音有极大缺陷，影响交流

C．因受刺激精神失常，造成言语理解和表达上的困难

D．因车祸头部受创，虽能模仿他人言语但经常答非所问

【解析】D。题干表述的定义要点：一是“神经中枢病损”，二是丧失口语、文字表达和领悟力的症候群。A 项不属于神经中枢病损；B 项没有失去文字和领悟能力，不属于症候群；C 项精神失常不属于“中枢病损”，排除；只有 D 项因车祸而“脑部病损”，从而失去口语、文字表达和领悟力等症候群，符合定义。

70．职业枯竭：是指人们在自己长期从事的工作重压之下，产生身心能量被工作耗尽的感觉。

根据上述定义，下列属于职业枯竭状态的是：（　）

A．老周不能胜任自己现有的工作，每天都会忙得焦头烂额

B．刚参加工作的小李觉得这份工作太累，产生了跳槽的念头

C．刘经理每天工作繁忙，缺乏充足的休息，情绪也越来越糟糕

D．在从事过许多不同的职业之后，老王觉得所有工作都索然无味

【解析】C。题干表述的定义要点：一是长期在自己工作重压下，二是产生身心被工作耗尽的感觉。A 项老周是工作能力的不够，而不是工作压力所致；B 项小李非长期工作；D 项老王只是对从事工作没有兴趣；

只有 C 项，刘经理因工作压力而缺乏休息，属于职业枯竭中的情绪枯竭。

71．价格垄断行为：是指经营者通过相互串通或者滥用市场支配地位，操纵市场调节价，扰乱正常的生产经营秩序，损害其他经营者或者消费者合法权益，或者危害社会公共利益的行为。

根据上述定义，下列不属于价格垄断行为的是：（　）

A．几家大型电视机生产企业通过协议联手操纵价格

B．某商场为了吸引顾客将部分商品低于成本价销售

C．拥有专利权的工厂凭借市场支配地位，在经销商提货时强制限定转售价格

D．一家占市场份额 70％的大企业以回扣、赠送等方式变相降价，致使商品市场价低于成本价

【解析】B。“价格垄断行为”的要点是：（1）经营者串通或滥用市场支配地位，操作市场调节价；（2）客观上扰乱正常秩序，并造成后果。A 项互相串通，联手操作市场价格，损害了消费者合法权益；C 项利用市场垄断地位强制限定转售价格，操作了市场的调节价，而扰乱了正常的经营秩序；D 项利用垄断地位变相降价，损害了其他经营者的合法权益；只有 B 项，不是垄断地位的某商场，其行为也不属于操作市场调节价，而是吸引顾客的一种促销活动，没有扰乱正常的经营秩序。

72．生态移民：是指为了保护某个地区特殊的生态或让某个地区的生态得到修复而进行的移民，也指因自然环境恶劣，不具备就地扶贫的条件而将当地人民整体迁出的移民。

根据上述定义，下列属于生态移民的是：（　）

A．贵州省某山区因土地出现石质化现象，该地区村民被迁往他乡

B．几百年前，中原一带的居民为躲避战争，整体迁到南方，成为客家人

C．某村落位于山谷中，交通十分不便，为更快致富，村民集体研究决定移居山外

D．张三的父母家住三峡库区，由于修水库，其父母将家产变卖，来到上海与张三一起居住

【解析】A。“生态移民”的关键是：因自然环境恶劣而整体迁移的移民。B 项躲避战乱，不属于自然环境恶劣；C 项村民自主决定为了致富而迁移，不属于因生态而迁移；D 项张三的父母属于个人投靠，不属于某地区的整体迁移；只有 A 项因地质问题而被整体迁移到他乡，属于生态移民。

73．危机公关：是指由于企业管理不善、同行竞争甚至遭遇恶意破坏或者是外界特殊事件的影响，而给企业或者品牌带来危机，企业针对危机所采取的一系列自救行动，包括消除影响、恢复形象等。

根据上述定义，下列属于危机公关的是：（　）

A．由于台风影响，某企业的户外广告牌被风吹倒，企业派员工前去修复

B．某企业由于重要生产设备被盗，严重影响生产，高层领导召开紧急会议，研究对策

C．某企业在行业竞争中失去领先地位，利润大幅下滑，企业高层领导决定转向新的领域

D．某大型餐饮集团的一个连锁店由于卫生状况差被曝光后，该集团领导通过媒体向公众道歉，并借此机会发布新的企业卫生管理标准

【解析】D。“危机公关”的要点在“公关”，即消除影响、恢复形象的系列自救行动。A 项台风吹倒广告牌没有给企业带来危机；B 项因设备被盗而召集高层会议研究对策，是企业内部的行为，不属于“消除影响自救行动”；C 项企业决定的转向不是消除外界影响的行动；只有 D 项，因特殊事件被曝光，集团领导的道歉和承诺，是“消除影响、恢复形象”的自救行动，符合定义。

74．附加值：是附加价值的简称，是在产品原有价值的基础上，通过生产过程中的有效劳动新创造的价值，即附加在产品原有价值上的新价值。

根据上述定义，以下行为提高了产品附加价值的是：（　）

A．某明星为娱乐活动优胜者的奖品签名

B．雨天商贩以高于市场价的价格在景区内销售雨具

C．某生产饮料的厂家将产品由过去的罐装变为塑料包装

D．个体商贩请人在白色 T 恤上画上各种漂亮的图案后出售

【解析】D。“附加值”要点是：（1）原产品价值上新增的价值；（2）有效劳动创造的价值。据此可知，A 项明星签名的奖品具有收藏价值，但不是生产过程的有效劳动产生的；B 项商贩的行为不属于有效劳动附加在雨具上；C 项罐装改塑料包装，属于减少产品的成本，不属于附加在原价值上的价值；只有 D 项，原白色 T 恤通过有效劳动后而新创造的价值，符合定义的条件。

75．流通加工：是指物品在从生产地到使用的过程中，根据需要施加包装、分割、计量、分拣、刷标志、帖标准、组装等简单作业的总称。

根据上述定义，下列属于流通加工的是：（　）

A．某工厂采购布匹、钮扣等材料，加工成时装并在市场上销售

B．某运输公司在冷藏车皮中保存水果，使之在运到目的地时更新鲜

C．杂货店将购时的西红柿按质量分成每斤 1 元和每斤 2 元两个档次销售

D．某批发商在运输玻璃杯的过程中，为杯子加上防震外包装，以避免某碎裂

【解析】D。“流通加工”的要点是：（1）从生产地到使用地；（2）为物品施加简单的作业。据此，A 项布匹加工成服装，不属于简单作业；B 项冷藏车上保存水果，没有给物品施加简单作业；C 项杂货店分装西红柿，不是从生产地到使用地的简单作业；只有 D 项，批发商将玻璃从产地到使用地施加的包装属于流通加工。

三、类比推理。先给出一组或多组相关的词，要求你在备选答案中找出一组与之在逻辑关系上最为贴近、相似或匹配的词。

请开始答题：

76．法律：约束

A．新闻：广播　　B．政策：规范

C．历史：借鉴　　D．制度：学问

【解析】C。法律的作用在于约束，历史的作用在于借鉴，具有诱惑性的主要是 B，政策的主要在于指导作用。

77．京剧：芭蕾

A．指南针：火药　　B．唐装：油画

C．佛教：基督教　　D．武术：拳击

【解析】D。京剧和芭蕾都同是戏剧艺术，而且京剧是中国戏剧，而芭蕾是外国舞剧；佛教和基督教都是宗教，但佛教来自印度，二者都是外国的宗教；指南针和火药都是中国的发明。唐装和油画虽有中、外之别，但属于不同艺术种类。武术和拳击，有中外之别，二者又都是一种搏击技术。

78．安居乐业：颠沛流离

A．吸收：放弃　　B．简单：杂乱

C．雪中送炭：雪上加霜　　D．巧夺天工：鬼斧神工

【解析】C。从逻辑关系上看，安居乐业：颠沛流离是对立的关系，意义相反；从匹配度上来看，他们都是成语。

79．蛹：蝶

A．丑小鸭：白天鹅　　B．胚胎：婴儿

C．种子：花朵　　D．蝌蚪：青蛙

【解析】B。前者是束缚状态下的自由生命，后者是自由状态的生命，D 中的蝌蚪不满足这样的关系。蛹是蝶的初级形态，青蛙来自蝌蚪，但青蛙有腿。而 A 中的形态没变化，C 不同于这一生长关系。

80．窑：陶瓷

A．学校：学生　　B．烤箱：面包

C．砖场：砖　　D．整数：自然数

【解析】B。窑是用来烧制陶瓷的，烤箱是用来烤制面包的。

81．国家：政府：行政

A．公司：经理部：经理　　B．野战军：作战部：参谋

C．董事会：经理部：职员　　D．总司令：军官：命令

【解析】B。题干表述的关系是：政府是国家的行政部门；B 项关系与此相同：作战部是野战军的参谋部门。

82．争议：仲裁：听证

A．诉讼：审判：旁听

B．通货膨胀：宏观调控：货币政策

C．突发事故：现场抢救：善后处理

D．交通安全：交通法规：交通警察

【解析】A。争议：仲裁：听证之间的逻辑关系是：争议可以通过仲裁这样一个方式来解决，这个过程中可能存在听证。选项 A，诉讼可以通过审判来解决，这个过程中可能存在旁听，与题意项符合。货币政策是宏观调控的一个工具和手段，通过货币政策可以进行宏观调控，这个逻辑在题干中并不存在，不能说成听证是实现仲裁的一个手段，通过听证可以进行仲裁，所以 B 不对。C，D 显然不对。

83．岩石：矿物：成份

A．森林：树木：木材　　B．粘土：沙子：石头

C．器官：组织：功能　　D．酒精：饮料：果汁

【解析】C。岩石和矿物是映射的场所关系，因为矿物在岩石中；矿物和成分是属性关系，有矿物就会有成分这一属性；C 项的关系与此相同：器官和组织是映射关系，组织和功能是属性关系。

84．（　）　对于　知识　相当于　分析　对于　（　）

A．书本　　理论　　B．学习　　结论

C．学问　　研究　　D．学生　　研究员

【解析】B。由于分析是个动词，可以直接排出 A、C、D 项，学习得到知识，分析得到结论。

85．电子政务　对于　纸张　相当于　（　）　对于　（　）

A．电子邮件　　信封　　B．网络歌手　　歌迷

C．网上购物　　现金　　D．电脑游戏　　软件

【解析】A。电子政务与纸张是对立的，电子邮件和信封与之相似。

四、逻辑判断。每题给出一段陈述，这段陈述被假设是正确的，不容置疑的。要求你根据这段陈述，选择一个答案。注意，正确的答案应与所给的陈述相符合，不需要任何附加说明即可以从陈述中直接推出。

请开始答题：

86．历史上一度盛行的古埃及、古巴比伦、古玛雅的语言文字已成历史尘埃，世界上现存的 6000 多种语言文字，平均每两周就消失一种。由此推算，到 2050 年，世界上将有 90%的语言文字灭绝。

以下哪项如果为真，最能反驳以上观点？（　）

A．有许多语言文学家正在研究这些语言文字

B．古代语言文字往往是随着文明被征服而灭绝的

C．许多濒危语言文字已经得到了重视和有效的保护

D．现代的非文盲比例与古代相比有非常显著的降低

【解析】C。选项 A 是说语言学家正在研究这些文字，选项 B 提到古代文字的遭遇，选项 D 对比非文盲比例，这些都不能对目前消失的文字起到削弱的作用。尽管文字在消失，但是已经采取有效的保护措施，因此到 2050 年不一定会有 90％的文字消失。

87．史书记载，春秋战国时期的古滇国历时五百余年，在云南历史上的地位颇为重要。古滇国的青铜文化吸收和融合了不同地区和民族的文化精华，然而东汉以后，古滇国却神秘消失，唐代以后的史书上竟没留下任何记载。近年来，抚仙湖南岸江川县李家山墓葬群出土了数千件古滇青铜器，抚仙湖北岸相连的晋宁石寨山曾出土滇王印。据此，考古学家推测云南抚仙湖水下古城就是神秘消失的古滇王城。

以下哪项如果为真，最能支持上述推测？

A．在抚仙湖水下古城，也发现了大量青铜器

B．按考古常规看，王国都城附近都是墓葬群

C．抚仙湖水下古城与史料记载的古滇国都位于今云南省境内

D．据专家推测，抚仙湖水下古城与古滇国处于同一历史时期

【解析】B。前提是抚仙湖周围的墓葬群出土古滇青铜器，结论是抚仙湖底的古城就是古滇王城。根据支持类题目的解题技巧：找到前提和结论的差异所在进行补充说明，选项 B 联系起了墓葬群和古代王城的关系，既然墓葬群里有古滇出土的文物，而古代王城又在墓葬群附近，那么墓葬群周围的水下古城就是古滇王城。选项 A、C、D 都未能联系前提和结论进行解释，不能起到支持作用。

88．从 2005 年 7 月开始，敦煌研究院对莫高窟采用了预约参观办法。这一措施合理有效地调控和平衡了游客流量，一方面加强了洞窟的保护，另一方面给游客提供了更加优质的服务。实施预约参观办法以来，来莫高窟参观的人数逐年递增，年游客接待量由 2004 年的 45 万人次增加到 2006 年的 55 万人次。

由此可以推出：（　）

A．莫高窟预约参观的办法为游客提供了便利

B．合理配置人力、物力资源可以实现利益最大化

C．预约参观办法实施前莫高窟的游客流量不均衡

D．科学合理地利用自然和人文资源能创造更大价值

【解析】B。莫高窟采用了预约参观办法使得游客接待量大大增加，这是合理配置资源的举措。

89．某小学向当地教育行政主管部门申请增购一辆校车，以加强对师生的接送能力。该教育行政主管部门否决了这项申请，理由是：校车的数量必须与学校规模和师生数量相配套。根据该校目前的师生数量和规模，现有的校车已经足够了。

以下哪一项假设最能支持教育行政主管部门的决定？（　）

A．调查显示，租用校车比购买校车更经济

B．该小学的校车中，至少近期不会有车辆报废

C．该地区小学适龄儿童数量今后不会有大的增长

D．该教育行政主管部门没有扩大该校师生规模的计划

【解析】D。A 与原文意思无关；B 未能联系前提和结论进行解释；C 是说适龄儿童不会有较大增长，但是只要有增长就要增加校车，因此表述不严谨。既然学校规模和师生数量相配套，而教育主管部门不打算扩大师生数量，那么就没有必要增加校车。

90．甲、乙、丙三名学生参加一次考试，试题一共十道，每道题都是判断题，每题 10 分，判断正确得 10 分，判断错误得零分，满分 100 分。他们的答题情况如下：

	1	2	3	4	5	6	7	8	9	10
甲	×	√	√	√	×	√	×	×	√	×
乙	×	×	√	√	√	×	√	√	×	×
丙	√	×	√	×	√	√	√	×	√	√

考试成绩公布后，三个人都是 70 分，由此可以推出，1～10 题的正确答案是：（　）

A．×、×、√、√、√、×、√、×、√、×

B．×、×、√、√、√、√、√、×、√、×

C．×、×、√、√、√、√、√、√、√、×

D．×、×、√、×、√、√、√、√、√、×

【解析】B。此题采取代入法即可，将答案代入进行检验，看其成绩是否都是 70 分。

91．有专家建议，为盘活土地资源，有效保护耕地，让农民像城市人一样住进楼房是个不错的选择，这样就可以将农民现有的住房“叠起来”，从而节省大量土地资源。

以下哪项如果为真，最能削弱上述专家的观点？（　）

A．由于农民的生活习惯，他们大多表示不愿意住楼房

B．建楼房消耗的资源与建现有的农民住房水泵的资源差不多

C．有农民表示，即使搬进楼房居住，他们也不会将现有的房子拆掉

D．农民住进楼房后远离田地，影响农业生产，会从效益上降低土地资源的利用

【解析】C。专家的建议是农民住房挤占耕地的基础上的，选项 C 恰恰是对专家建议的直接反驳。

92．我国酸雨主要出现于长江以南，北方只有零星分布，这是因为北方常有沙尘天气，来自沙漠的沙尘和当地土壤都偏碱性。

由此可以推出：（　）

A．长江以北地区的酸性污染物排放较少

B．长江以南地区的土壤偏碱性的较少

C．沙尘天气可有效降低酸雨出现的几率

D．有酸雨的地区出现沙尘天气的几率较小

【解析】C。选项 C 正是对主旨的抽象概括，说明沙尘天气可以降低酸雨出现的机率。选项 A 是说污染物排放，原文中无法推出；选项 B 是说南方土壤偏碱性较少，因为酸雨少的原因有两方面：沙尘和土壤偏碱性，因此不能因为南方多酸雨就认为土壤偏碱性较少；选项 D 是说多酸雨地区也少沙尘天气，正好颠倒了论证的因果关系。

93．有专家认为，家庭装修中使用符合环保标准的建材只能保证有害物质的含量符合相关行业要求，并不代表完全不含有害物质，因此在装修中大量甚至过度使用建材，仍会导致有害物质累积超标。

由此可以推出：（　）

A．建材行业应该进一步严格环保标准

B．建材行业应努力降低产品的有害物质含量

C．挑选好的建材可以有效避免室内空气质量不合格

D．适量使用建材才能减少室内空气中的有害物质

【解析】D。题干的意思可以概括为即使是使用合格建材，也会因为大量甚至过度的使用而导致有害物质超标，很显然 D 项最为合适。

94．为适应城市规划调整及自身发展的需要，某商业银行计划对全市营业网点进行调整，拟减员 3%，并撤销三个位于老城区的营业网点，这三个营业网点的人数正好占该商业银行总人数的 3%。计划实施后，上述三个营业网点被撤销，整个商业银行实际减员 1.5%。此过程中，该银行内部人员有所调整，但整个银行只有减员，没有增员。

据此可知，下列陈述正确的有：（　）

Ⅰ、有的营业网点调入了新成员

Ⅱ、没有一个营业网点调入新成员的总数超出该银行原来总人数的 1.5%

Ⅲ、被撤销营业网点中的留任人员不超过该银行原来总人数的 1.5%

A．只有Ⅰ　　B．只有Ⅰ和Ⅱ　　C．只有Ⅱ和Ⅲ　　D．Ⅰ、Ⅱ和Ⅲ

【解析】A。在撤销减员之前，打算减员 3%；撤销减员之后，占员工数 3%的老城三店被撤销，但是最后只减员 1.5%，必然有另外的 1.5%调入了其它营业网点，Ⅱ和Ⅲ说法过于绝对。

95．最近一项调查显示，近年来在某市高收入人群中，本地人占 70%以上，这充分说明外地人在该市获得高收入相当困难。

以下哪项如果为真，才能支持上述结论？（　）

A．外地人占该市总人口的比例高达 40%

B．外地人占该市总人口的比例不足 30%

C．该市中低收入人群中，外地人占 40%

D．该市中低收入人群中，本地人占不足 30%

【解析】A。高收入人口中 70%以上是本地人，同时外地人在城市总人口中占有较大比重（大于 30%），说明外地人获得高收入困难。否则如果外地人很少的话，高收入中有超过 70%的是本地人也属于正常现象，也就无从谈起外地人获得高收入困难。选项 B 与 A 意思相反，不是支持反而是削弱；选项 C、D 谈到了中低收入人口比重，与原文无关。

第三部分结束，请继续做第四部分！

第四部分　常识判断

（共 25 题，参考时限 10 分钟）

根据题目要求，在四个选项中选出一个正确答案。

请开始答题

96．下列关于法律体系的表述中，不正确的是：（　）

A．法律体系由法律部门组成

B．我国社会主义法律体系尚不完备

C．中华法系也即我国的社会主义法律体系

D．法律体系是一国法律有机联系的统一体

【解析】C。法律体系是指一国所有的现行法律规范汇合而形成的一个有机整体，它由法律部门直接构成。中华法系是以《唐律疏议》为代表的中国封建法律制度与仿效制定而形成的东亚诸国的法律制度所构成的一种法系，是传统世界的五大法系之一（大陆法系、英美法系、印度法系、中华法系、伊斯兰法系），而不是我国现行的社会主义法系。

97．我国有权制定行政法规的主体，限于（　）

A．国务院

B．国务院和省级人民政府

C．国务院及国务院各部、各委员会

D．国务院和省级人民政府及较大市的人民政府

【解析】A。根据《立法法》第 56 条规定：国务院根据宪法和法律，制定行政法规。

98．某省人民政府的规章与国务院某一部门的规章不一致，按照法律规定，下列做法正确的是（　）

A．由国务院裁决

B．由最高人民法院裁决

C．由国务院法制办公室裁决

D．由全国人民代表大会常务委员会对违法的规章予以撤销

【解析】A。根据《立法法》第 86 条规定：部门规章之间、部门规章与地方政府规章之间同一事项的规定不一致时，由国务院裁决。

99．我国对法律溯及力问题，实行的原则是（　）

A．法在任何情况下均溯及既往

B．法在任何情况下均不溯及既往

C．法在一般情况下均溯及既往，但为了更好地保护公民、法人或者其他组织的权利和利益而作的特别规定除外

D．法在一般情况下不溯及既往，但为了更好地保护公民、法人或者其他组织的权利和利益而作的特别规定除外

【解析】D。根据《立法法》第 84 条规定：法律、行政法规、地方性法规、自治条例和单行条例、规章不溯及既往，但为了更好地保护公民、法人和其他组织的权利和利益而作的特别规定除外。我国在对法律溯及力问题上主张法作为指导人们行为的准则，一般只应适用于它生效后发生的行为、事件和形成的关系。故法在一般情况下不溯及既往。当然，法不溯及既往并不是绝对的。在有些情况下把新法溯及既往适用于过去的行为、事件和关系，以补充非溯及既往的不足，但是需以有明文规定为限。

100．根据我国宪法和有关法律的规定，下列构成违宪或违法的行为是（　）

A．国家主席代表中华人民共和国接待外国使节

B．某自治州人民代表大会常务委员会制定本自治州的《自治条例》

C．国务院某部发布《关于认真学习贯彻<行政机关公务员处分条例>的通知》

D．国务院根据全国人民代表大会常务委员会的授权决定，对储蓄存款利息所得减征个人所得税

【解析】B。根据《宪法》第 116 条规定：民族自治地方的人民代表大会有权依照当地民族的政治、经济和文化的特点，制定自治条例和单行条例。民族自治地方的人民代表大会常务委员会没有权利制定本自治州的《自治条例》。

101．下列人员中，通常由县级以上地方各级人民代表大会选举产生的是（ ）

A．局长、厅长、委员会主任

B．副局长、副厅长、委员会副主任

C．人民法院副院长、人民检察院副检察长

D．副省长、副市长、副州长、副县长、副区长

【解析】D。根据《地方各级人民代表大会和地方各级人民政府组织法》第 8 条规定：县级以上的地方各级人民代表大会行使下列职权……（五）选举省长、副省长，自治区主席、副主席，市长、副市长，县长、副县长，区长、副区长；……。

102．下列关于土地所有权的说法中正确的是（ ）

A．土地全部属于国家所有

B．城市土地属于国家所有

C，土地全部属于集体所有

D．农村和城市郊区的土地，除由法律规定属于集体所有的以外，属于国家所有

【解析】B。根据《宪法》第 10 条规定：城市的土地属于国家所有。

103．“行政机关实施行政管理，应当依照法律、法规、规章的规定进行；没有法律、法规、规章的规定，行政机关不得作出影响公民、法人和其他组织合法权益或者增加公民、法人和其他组织义务的决定”。这主要体现了依法行政中的哪一项要求？（ ）

A．合法行政　　B．合理行政

C．程序正当　　D．诚实守信

【解析】A。本题主要体现了合法行政原则，该原则要求行政主体严格依法办事，行政管理活动应有法可依，严格遵照法律进行。这里所讲的“法律”是广义上的法律，不仅仅指全国人大及常委会制定的宪法、法律，还包括行政法规和规章等。

104．小王参加公务员录用考试被某机关录用，在试用期内因违反公务员纪律被取消录用，小王不服，他可以采取的正确做法是（ ）

A．向人民政府申请行政复议

B．向人民法院提起行政诉讼

C．向同级公务员主管部门提出申诉

D．向人事争议仲裁委员会申请仲裁

【解析】C。根据《公务员法》有关规定，公务员对涉及本人的下列人事处理不服的，可以申请复核或申诉：①处分；②辞退或者取消录用：③降职；④定期考核定为不称职；⑤免职；⑥申请辞职、提前退休未予批准；⑦未按规定确定或者扣减工资、福利、保险待遇；⑧法律、法规规定可以申诉的其他情形，按照规定应向同级公务员主管部门或作出该人事处理机关的上一级机关提出申诉。

105．下列哪一情形，不在人民法院受理的行政诉讼案件的范围内？（ ）

A．税务机关对纳税人采取的强制执行措施

B．工商行政管理机关拒绝颁发企业法人营业执照

C．公安机关对现行犯或者重大嫌疑分子的刑事拘留

D．中国证券监督管理委员会对上市公司的罚款决定

【解析】C。根据《最高人民法院关于执行<行政诉讼法>若干问题解释》第 1 条第 2 款的规定，公民法人或其他组织对公安、国家安全等机关依照刑事诉讼法的明确授权实施的行为不服提起诉讼的，不属于人民法院行政诉讼的受案范围。

106．根据法律规定，以下属于行政裁决的是（　）

A．深圳仲裁委员会对民事纠纷的仲裁

B．山西省人民政府对污染环境企业的限期治理决定

C．某人事争议仲裁委员会对履行聘任合同争议的裁决

D．国家知识产权局专利复审委员会根据利害关系人申请，宣告某专利权无效

【解析】D。行政裁决是指行政机关依照法律授权，对当事人之间发生的与行政管理活动密切相关的民事纠纷进行审查，并作出裁决的行为。根据相关法律规定，行政裁决的种类有：土地使用权争议裁决、城市房屋拆迁裁决、专利权纠纷裁决等。

107．按照《律师法》规定：申请领取律师执业证书，司法行政机关应当自收到申请之日起 30 日内作出是否颁发的决定，而按照《行政许可法》的规定，行政机关一般应当自受理行政许可申请之日起 20 日内作出行政许可决定。2004 年 7 月初，张某向省司法厅申请领取律师执业证书，司法厅的正确做法是（　）

A．依据《律师法》，在 30 日内作出是否颁发的决定

B．依据《行政许可法》，在 20 日内作出是否颁发的决定

C．因法律关于期限的规定不一致，报请全国人大常委会裁决后再作决定

D．可以选择依据《律师法》或者《行政许可法》关于期限的规定作出决定

【解析】A。根据《行政许可法》第 42 条规定：除可以当场作出行政许可决定外，行政机关应自受理行政许可申请之日起 20 日内作出行政许可决定。20 日内不能做出决定的，经本行政机关负责人批准，可以延长 10 日，并应当将延长期限的理由告知申请人，但是，法律、法规另有规定的，依照其规定。这里的《律师法》即为另有规定的“法律”，故而本题应该适用《律师法》。

108．关于主动公开的政府信息，行政机关的下列哪一做法符合《政府信息公开条例》的规定？（　）

A．甲县规定，乡、镇政府制作的政府信息，统一由县政府负责公开

B．乙市一项行政事业性收费的标准发生变动，在标准变动以后第 30 日予以公开

C．丙区规定，行政机关应当编制、公布政府信息公开指南或政府信息公开目录，并及时更新

D．丁市政府在市图书馆设置政府信息查阅场所，并配备相应的设备，为公民、法人或者其他组织获取政府信息提供便利

【解析】D。根据《政府信息公开条例》第 9 条规定：行政机关对符合下列基本要求之一的政府信息应当主动公开：（一）涉及公民、法人或者其他组织切身利益的；（二）需要社会公众广泛知晓或者参与的；（三）反映本行政机关机构设置、职能、办事程序等情况的；（四）其他依照法律、法规和国家有关规定应当主动公开的。

第 12 条规定：乡（镇）人民政府应当依照本条例第九条的规定，在其职责范围内确定主动公开的政府信息的具体内容，并重点公开下列政府信息：（一）贯彻落实国家关于农村工作政策的情况；（二）财政收支、各类专项资金的管理和使用情况；（三）乡（镇）土地利用总体规划、宅基地使用的审核情况；（四）征收或者征用土地、房屋拆迁及其补偿、补助费用的发放、使用情况；（五）乡（镇）的债权债务、筹资筹

劳情况；（六）抢险救灾、优抚、救济、社会捐助等款物的发放情况；（七）乡镇集体企业及其他乡镇经济实体承包、租赁、拍卖等情况；（八）执行计划生育政策的情况。所以 A 项是错误的。

第 16 条规定：各级人民政府应当在国家档案馆、公共图书馆设置政府信息查阅场所，并配备相应的设施、设备，为公民、法人或者其他组织获取政府信息提供便利。所以 D 项是正确的。

第 18 条规定：属于主动公开范围的政府信息，应当自该政府信息形成或者变更之日起 20 个工作日内予以公开。法律、法规对政府信息公开的期限另有规定的，从其规定。所以 B 项是错误的。

第 19 条规定：行政机关应当编制、公布政府信息公开指南和政府信息公开目录，并及时更新。“和”和“或”，一字之差，但意思是截然不同的，所以 C 项是错误的。

109．卫生部和国家工商行政管理总局对某国有企业共同作出一项行政处罚，该企业不服欲申请行政复议，应当如何处理？（　）

A．该企业应当向国务院申请行政复议，由国务院作出行政复议决定

B．该企业可以同时向两个机构申请行政复议，由国务院作出行政复议决定

C．该企业可以同时向这两个机构申请行政复议，由作出具体行政行为的国务院机构共同作出行政复议决定

D．该企业可以向其中任何一个机构申请行政复议，由作出具体行政行为的国务院机构共同作出行政复议决定

【解析】D。根据《行政复议法实施条例》第 23 条规定：申请人对两个以上国务院部门共同作出的具体行政行为不服的，依照行政复议法第 14 条规定，可以向其中一个国务院部门提出行政复议，由作出具体行政行为的国务院部门共同作出复议决定。

110．对于完善依法行政的财政保障机制，下列做法正确的是（　）

A．行政经费统一由财政纳入预算予以保障，并实行国库集中支付

B．完善分散灵活的公共财政体制，逐步实现规范的部门预算，统筹安排和规范使用财政资金，提高财政资金使用效益

C．清理和规范行政事业性收费等政府非税收入；统一行政机关工作人员工资和津补贴制度，迅速解决同一地区不同行政机关相同职级工作人员收入差距较大的矛盾

D．行政机关不得设立任何形式的“小金库”；严格执行“收支两条线”制度。行政事业性收费和罚没收入应当全部或部分上缴财政，允许一定条件下返还

【解析】A。根据 2004 年 4 月 20 日国务院发布的《全面推进依法行政实施纲要》（下简称《纲要》）“要完善集中统一的公共财政体制”可知，B 项是错误的；根据《纲要》“逐步解决同一地区不同行政机关相同职级工作人员收入差距较大的矛盾”可知，C 项是错误的；根据《纲要》“行政事业性收费和罚没收入必须全部上缴财政，严禁以各种形式返还”可知，D 项是错误的；根据《纲要》“行政经费统一由财政纳入预算予以保障，并实行国库集中支付”可知，A 项是正确的。

111．王某与他人合作投资成立了一家有限责任公司，王某任法定代表人。后来公司倒闭，公司资产不足以偿还债务。公司的债权人要求王某偿还不足部分。下列说法正确的是（　）

A．王某投资成立有限责任公司，王某无需承担公司债务

B．王某是公司的投资人，公司的债权人可以要求王某偿还

C．王某是公司的法定代表人，公司的债权人可以要求王某偿还

D．王某与他人合作投资，王某应当按照出资比例对公司的债务承担偿还责任

【解析】A。根据《公司法》第 3 条规定：有限责任公司以其全部财产对公司债务承担责任。股东以其

认缴的出资额为限对公司承担责任。股东以其认购的股份为限承担有限责任。

112．根据《国家赔偿法》的规定，国家赔偿的主要方式是（　）

A．支付赔偿金　　B．返还财产

C．消除影响　　D．恢复原状

【解析】A。《国家赔偿法》第 25 条规定：国家赔偿以支付赔偿金为主要方式。

113．张某 11 周岁，小学五年级学生，经常在其学校门口的一家小卖部买零食和一些学习用品，部分赊账，年终时共欠小卖部 340 元。小卖部老板拿着账单要求张某父亲付款，遭到张某父亲拒绝。下列说法正确的是（　）

A．张某购买零食和学习用品的行为是无效的民事行为，其父亲作为监护人，无需赔偿

B．张某购买零食和学习用品的行为是合法有效的民事行为，其父亲作为监护人，应当付款

C．张某购买零食和学习用品的行为是无效的民事行为，其父亲作为监护人，应当赔偿

D．张某购买零食和学习用品的行为是合法有效的民事行为，应当由其自己付款，不应当由其父亲付款。

【解析】B。根据《民法通则》第 12 条规定：10 周岁以上的未成年人是限制民事行为能力的人，可以进行与他的年龄、智力相适应的民事活动，其他民事活动由他的法定代理人代理，或者征得他的法定代理人的同意。本题中张某购买零食和学习用品的行为是与他的年龄和智力发育程度相当的民事法律行为，故合法有效。但是根据《最高法院关于贯彻<民法通则>若干问题的意见》第 10 条规定，作为张某的父亲对被监护人张某有进行管理和教育的职责，如果因监护人管教不严，被监护人造成他人损害的，由监护人承担责任。

114．方某在晚上牵狗散步，狗突然挣脱绳索，奔向童某（3 岁），并咬伤童某。当时童某父亲正在用手机给朋友打电话。关于本案，下列说法正确的是（　）

A．方某应当负全部责任

B．方某和童某父亲都要承担责任

C．意外事件，方某不需要承担责任

D．童某父亲没有看管好自己的孩子，应当负全部责任

【解析】A。根据《民法通则》第 127 条规定：如果发生动物致人损害责任，从归责原则上讲属于无过错责任。只要存在饲养的动物造成他人损害的事实，并且该损害是因动物自身的非人力强制或驱使的动作造成的，饲养人或管理人员就应承担责任，而不问其本身是否存在过错。但是，如果饲养人或者管理人能证明以下两种情况：一是受害人过错；二是第三人过错，则可免除其民事责任。本题中不存在“第三人过错”的情形。关于“受害人过错”包括故意和过失，前者如受害人有意挑逗动物致自己受害；后者如受害人明知有被动物之害的危险却自信不会招致危险而不予躲避致自己受害。本题中童某及其父亲均不存在过错。

115．陈某与陆某是邻居。陈某家建房挖地基，导致陆某房屋墙面出现裂缝。陆某遂找陈某要求修缮，遭到陈某拒绝。关于本案，下列说法正确的是（　）

A．陈某不可以挖地建房，因为挖地建房会损坏邻居陆某的房屋

B．陆某家墙面出现裂缝，属于意外事件，陈某不需要承担责任

C．陈某可以挖地建房，但对邻居陆某房屋造成的损害应当给予赔偿

D．陈某在自家的地基上建房，造成陆某家的墙面出现裂缝，不需要承担责任

【解析】C。根据《物权法》第 91 条规定：不动产权利人挖掘土地、建造建筑物、铺设管线以及安装设备等，不得危及相邻不动产的安全。第 92 条规定：不动产权利人因用水、排水、通行、铺设管线等利用

相邻不动产的，应当尽量避免对相邻的不动产权利人造成损害；造成损害的，应当给予赔偿。

116．我国《合同法》对买卖合同中标的物风险的负担作出了较为详细的规定；下列有关风险负担的表述正确的是（　）

A．特定物的风险在合同成立后即由买受人承担

B．需要运输的标的物，自交付给买受人后风险转移给买受人

C．在途货物的风险除另有约定外自合同成立后即转移给买受人

D．在由于标的物存在质量瑕疵，买受人拒绝受领的情况下，风险转移给买受人

【解析】C。根据《合同法》第 144 条规定：出卖人出卖交由承运人运输的在途标的物，除当事人另有约定的以外，毁损、灭失的风险自合同成立时起由买受人承担，B 项错误，C 项正确；根据《合同法》第 144 条规定：因标的物质量不符合质量要求，致使不能实现合同目的的，买受人可以拒绝接受标的物或者解除合同。买受人拒绝接受标的物或者解除合同的，标的物毁损、灭失的风险由出卖人承担，D 项错误。

117．关于国有资产管理，下列说法不正确的是（　）

A．国家举办的事业单位对其直接支配的动产享有所有权

B．国家出资的企业，由国务院、地方人民政府依照法律、行政法规规定分别代表国家履行出资人职责，享有出资人权益

C．履行国有财产管理、监督职责的机构及其工作人员，应当促进国有财产保值增值

D．违反国有财产管理规定，在企业合并过程中，擅自对外提供担保造成国有财产损失的，应当依法承担法律责任

【解析】A。根据《事业单位国有资产管理暂行办法》第 5 条规定：事业单位国有资产实行国家统一所有。根据第 3 条规定：事业单位国有资产是指事业单位占有、使用的，依法确认为国家所有，能以货币计量的各种经济资源的总称，即事业单位的国有（公共）财产，A 项是不正确的。

118．甲欲杀死乙，在乙饭碗里投放毒药，不料朋友丙分食了乙的饭菜，甲为了杀死乙，没有阻止丙，结果导致乙和丙均中毒死亡。甲对丙死亡所持的心理态度是（　）

A．过于自信的过失　　B．疏忽大意的过失

C．间接故意　　D．直接故意

【解析】C。根据《刑法》第 14 条规定：犯罪故意分为直接故意和间接故意两种类型。其不同点是：直接故意是指行为人明知自己的行为会发生危害社会的结果，并且希望这种结果发生的心理态度。间接故意是指行为人明知自己的行为可能发生危害社会的结果，并且有意放任，以致发生这种结果的心理态度。与直接故意不同，间接故意的认识因素是指行为人认识到自己的行为可能发生危害社会的结果，而不包括认识到自己的行为必然会发生危害社会的结果（如是这样而又决意实施的，是直接故意）。可见本题中甲对乙而言目的性很明确，就是希望要杀死乙；而对丙的死亡所持的心理态度甲并不是积极追求的态度，所以属于间接伤害。

119．王某持匕首抢劫张某，在争斗中王某头部撞击墙角昏迷倒地，匕首掉在地上。张某见状，捡起匕首往王某心脏部位猛刺数下，导致王某死亡。对于张某用匕首刺死王某的行为，下列说法正确的是（　）

A．属于正当防卫，不负刑事责任

B．属于意外事件，不负刑事责任

C．属于防卫过当，应当负刑事责任

D．属于故意杀人，应当负刑事责任

【解析】D。根据《刑法》第 2 条关于正当防卫概念的规定：正当防卫的时间是正当防卫的客观要件之

一，它所要解决的是在什么时候可以进行正当防卫的问题。必须是面临正在进行的不法侵害才能实行。防卫时间可以从两个方面进行认定：一是开始时间：是指不法侵害的行为已着手侵害；二是终止时间：是指在不法侵害终止后，正当防卫的前提条件已不复存在。一般在以下三种情况下，应当认为不法侵害已经终止，不得再实行正当防卫：第一，不法行为已经结束；第二，不法侵害行为确实已自动停止；第三，不法侵害行为人已经被制服或者已经丧失侵害能力。本题属于第三种情况，在此种情况下，张某刺死王某的行为应当属于故意杀人。

120．下列关于共同犯罪的说法，正确的是（　）

A．被胁迫的人，在身体受到强制、完全丧失意志自由时实施某种危害行为的，也是胁从犯

B．乙组织妇女卖淫，丙为其寻找卖淫女、联系嫖客，但从不直接参与管理活动。对丙应当以乙组织卖淫罪的共犯论处

C．甲是某国有控股公司的财务人员，在某晚故意不关财务室窗子、不锁保险柜，然后指使中学生乙（16周岁）潜入财务室窃取甲保管的公款、甲乙构成贪污罪共犯

D．丁是某国有保险机构工作人员，唆使投保人戊将自己投保的汽车烧毁后向保险公司理赔，然后利用自己办理理赔的职务便利为丁理赔 8 万元，二人平分。丁戊构成贪污罪共犯

【解析】D。《刑法》第 25 条明确规定：共同犯罪是指二人以上共同故意犯罪。共同犯罪必须具备三个条件：（1）犯罪主体必须是两个以上达到刑事责任年龄、具有刑事责任能力的人；（2）具有共同的犯罪故意；（3）具有共同的犯罪行为。这三个条件缺一即不构成共同犯罪。

A 项中的胁从犯是指在共同犯罪中被胁迫参加犯罪的人，并不具备共同的犯罪故意，不属于共同犯罪。B 项中的丙从不直接参与卖淫活动的组织和管理，不属于共同犯罪。选项 C 中的甲属于职务犯罪，而学生乙已经达到刑事责任年龄，应判为盗窃罪，二者不具有共同的犯罪行为。《刑法》第 382 条规定：受国家机关、国有公司、企业、事业单位、人民团体委托管理、经营国有财产的人员，利用职务上的便利，侵吞、窃取、骗取或者以其他手段非法占有国有财物的，以贪污论处。与前两款所列人员勾结，伙同贪污的，以共犯论处。根据这条规定，D 项中的丁作为国有保险机构的工作人员骗保属于贪污罪，而戊与丁勾结，伙同贪污，构成贪污罪。

第五部分 资料分析

（共 20 题，参考时限 20 分钟）

所给处的图、表、文字或综合性资料均有若干个问题要你回答。你应根据资料提供的信息进行分析、比较、计算和判断处理。

请开始答题：

一、根据所给图表、文字资料回答 121-126 题。

图 1：1994 至 2006 年全国报纸印刷量增长曲线

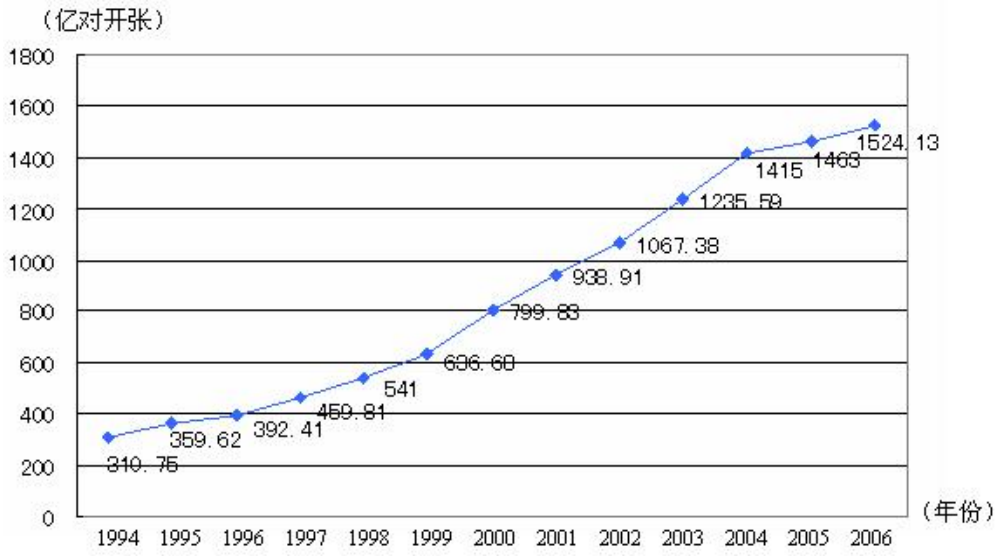

图 2：1994 至 2006 年全国报纸印刷量增长曲线

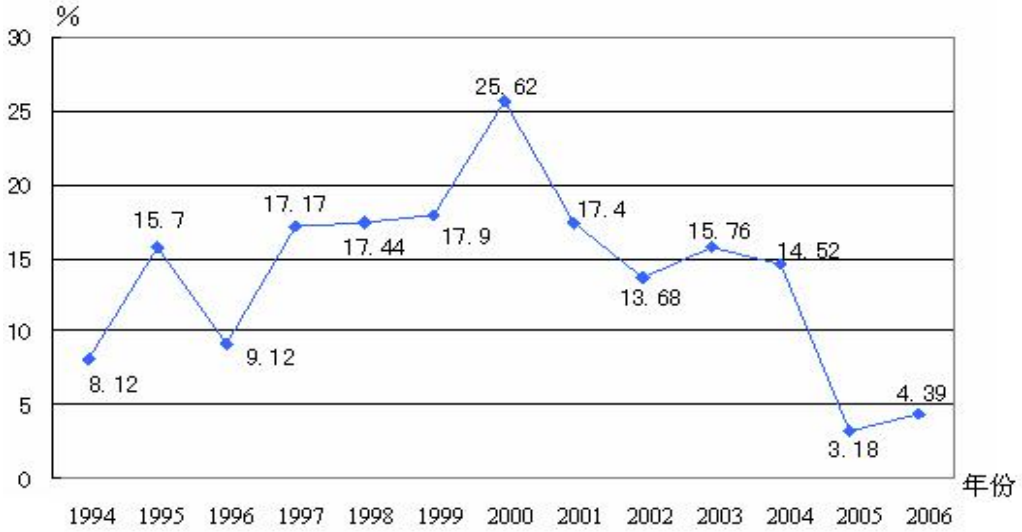

在 1994 至 2006 年间，全国报纸印刷总量持续增长。

以 2004 年为例，年印刷量在 10 亿对开张以上的企业有 30 家，其中印刷量增长的企业占 90%，而且全部增长 5%以上，增长率达两位数的企业占 66.67%。年印刷量在 5 亿至 10 亿对开张之间的企业有 26 家，其中印刷量增长的有 25 家，增长率达到两位数的有 19 家。

到了 2005 年，年印刷量在 10 亿对开张以上的企业有 29 家，其中印刷量增长的有 17 家，增长 5%以上的有 11 家，而保持两位数增长的有 8 家，印刷量减少的企业有 11 家。年印刷量在 5 亿至 10 亿对开张之间的企业有 31 家，其中印刷量增长的有 20 家，增长 5%以上的有 16 家，保持两位数增长的有 13 家。印刷量减少的企业有 10 家。

再看 2006 年，年印刷量在 10 亿对开张以上的企业有 31 家，其中印刷量增长的有 19 家，增长 5%以上的有 14 家，保持两位数增长的有 10 家。印刷量减少的企业有 11 家。年印刷量在 5 亿至 10 亿对开张之间的企业有 28 家，其中印刷量增长的有 20 家，增长 5%以上的有 14 家，保持两位数增长的有 7 家。印刷量减少的企业有 8 家。

121．2004 年印刷量增长率在 5%以上的企业有（　）家？

A．19　　B．49　　C．55　　D．无法判断

122．2005 年，年印刷量在 5 亿对开张以上的企业中，印刷量增长率为负的企业所占比例是（　）

A．16.6％　　B．32.3％　　C．35.0％　　D．38.3％

123．2006 年，年印刷量在 10 亿对开张以上的企业中，印刷量增长 5％以上，且低于 10％的企业有（　）家？

A．3　　B．4　　C．5　　D．8

124．以下关于 1994 至 2006 年年印刷量、年增长率的说法中，正确的是（　）

A．年平均增长率在 10％以上

B．年增长量最多的是 2001 年

C．年增长率大于 10％有 8 个年份

D．1998 年的年增长量不到 2002 年的一半

125．2005 年与 2006 年相比，年印刷量在 5 亿对开张以上的企业中，以下正确的一行是（　）

	2005	2006
A．年印刷量减少的企业数	11	11
B．年增长率低于 5％的企业数	33	31
C．年增长率在两位数的企业数	13	10
D．年印刷量 10 亿对开张以上的企业占企业总数的百分比	49％	50％

126．根据资料，下列可以解释报纸印刷量增长率变化的事例是（　）

A．1994 年各大报纸的发行量出现萎缩

B．2003 至 2005 年出现电子报纸等新媒体

C．2000 至 2002 年各大报纸纷纷增加版面

D．1997 至 1999 年各大报纸刊登的广告数量持续减少

【参考答案与解析】

121．D。根据“年印刷量在 5 亿至 10 亿对开张之间的企业有 26 家，其中印刷量增长的有 25 家，增长率达到两位数的有 19 家”这句话，只能知道印刷量增长率分别达到或超过 10％以及不到 10％（但也是增长）的企业个数。无法计算增长率在 5％以上的企业个数。

122．C。由题意，一共有 21 家印刷量增长率为负。这些企业占企业总量的比例为 $\frac{11+10}{29+31}\times 100\%=35\%$。

123．B。根据第四段中“增长 5％以上的有 14 家，保持两位数增长的有 10 家”可知，符合要求的企业有 4 家。

124．A。A 项“年平均增长率在 10％以上”，用眼估算，大部分增长都在 10％以上，年平均增长率也在 10％以上，A 项正确；2004 年增长量比 2001 年多，B 选不正确；一共有 9 个年份的增长率大于 10％，C 项不正确；1998 年的增长量（绝对量）为 541－459.81>540－460＝80，而 2002 年的增长量（绝对量）为 1067.38－938.91<1070－930＝140，因此 1998 年的增长量超过了 2002 年的一半，D 项不正确。

125．B。因为 2005 年印刷量在 5 亿对开张以上的企业，有 11＋10＝21 家印刷量减少的企业，11 家只是年印刷量 10 亿对开张以上的企业中印刷量减少的企业个数，所以 A 项不正确；因为 2005 年增长率在两位数的企业数为 8＋13＝21 家，21 家只是年印刷量 5～10 亿对开张企业中保持两位数增长的企业数，所以 C 项不正确；因为 2006 年印刷量在 10 亿对开张以上的企业有 31 家，而印刷量在 5～10 亿对开张的企业有 28 家，因此年印刷量 10 亿对开张以上的企业占企业总数的百分比大于 50％，所以 D 项不正确；只有 B 项正确，需要注意的是 B 选项当中年增长率低于 5％的企业包括了增长率为负的企业。

126．B。1994 年的增长率为正，因此各大报纸发行量不可能出现萎缩，所以 A 项不正确；B 选项正确，正因为电子报纸能新媒体的出现，使得报纸的印刷量增长变缓（注意，这并不代表减少）；C 选项不正确，如果 2000 年至 2002 年各大报纸纷纷增加了版面，那么年印刷量应该增加更快；D 选项不正确，“广告数量”属于无关信息。

二、根据下图回答 127-130 题。

1990 至 1992 年和 2000 至 2002 年全球发展中地区饥饿人口的比例示意图

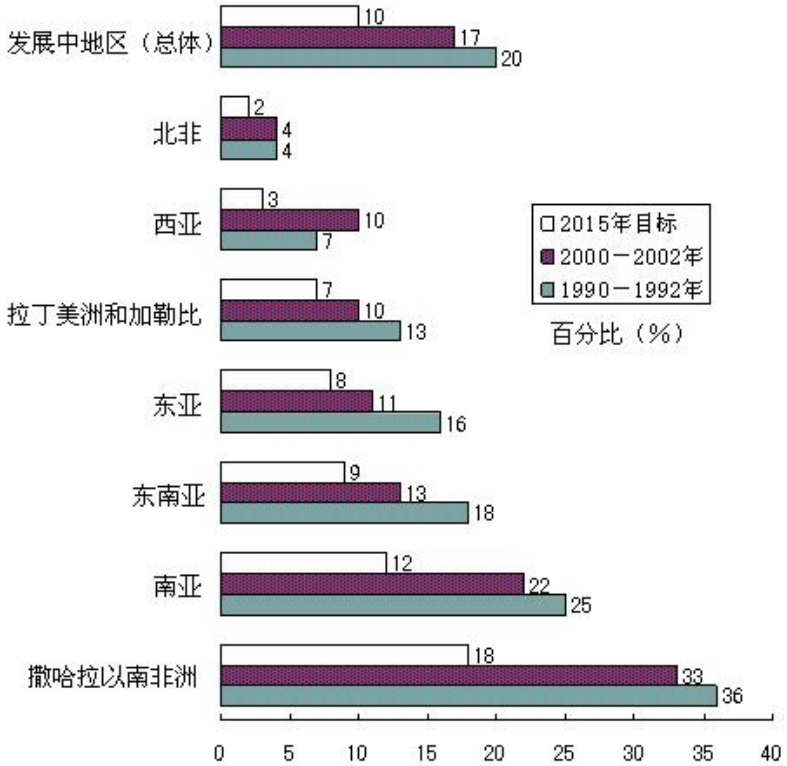

127．1990～2002 年间，当地人民食物获取状况恶化的地区是（　）

A．拉丁美洲和加勒比　　B．南亚　　C．撒哈拉以南非洲　　D．西亚

128．按 1990～2002 年间的发展趋势，有几个地区将能够达到或超过 2015 年发展中地区（总体）的目标水平（　）

A．3 个　　B．4 个　　C．5 个　　D．6 个

129．若南亚地区 1992 年总人口数为 15 亿，该地区平均人口年增长率为 2%，那么 2002 年南亚地区饥饿人口总量为多少亿人（　）

A．3.30　　B．3.96　　C．4.02　　D．4.82

130．下列说法中，不能从图示信息中获得支持的是（　）

I．1992～2002 年间，北非饥饿人口的数量并没有因人口总量的变化而变化

II．1992～2002 年间，东南亚和南亚地区的饥饿人口比例基本能反映发展中地区的总体概况

III．1992～2002 年间，发展中地区的饥饿人口主要集中在南亚地区和撒哈拉以南非洲地区

IV．1992～2002 年间，东亚地区在改善人民饥饿状况的工作方面最为突出

A．I　　B．II 和 III　　C．I 和 III　　D．I 和 IV

【参考答案与解析】

127．D。从图中可以看出只有西亚地区的饥饿人口百分比增大了。

128．B。发展中地区（总体）的 2015 年目标为饥饿人口百分比降至 10%。有四个地区按照其发展趋势可以达到这个目标，分别为北非、拉丁美洲和加勒比、东亚、东南亚。

129．C。如果按照 2%是几何平均值，那么到 2002 年，南亚地区饥饿人口总量将变为 $15\times(1+2\%)^{10}\times22\%>15\times(1+0.02\times10)\times22\%=3.96$ 亿，因为 0.02 很小，所以选比 3.96 略大的 4.02。

130．C。I 和 III 都在谈论饥饿人口的绝对数量，无法从文中获得。

三、根据下列文字说明、表 1 和表 2 回答 131-135 题

某市 2005 年就该市城镇居民和农民参加体育锻炼及其影响因素，开展了一项调查。调查结束后按城乡、性别分别进行了统计，统计结果如下两张表所示。

表 1：2005 年某市城镇居民和农民参加体育锻炼项目情况统计（%）

	城镇	农村	男	女
武术健身气功	6.0	2.1	4.7	5.9
健身操舞秧歌	12.8	8.0	3.8	20.1
健美力量练习	7.3	5.8	8.5	5.4
自行车	23.8	21.0	24.7	21.8
登山	14.9	10.4	14.4	13.8
球类	316	16.8	37.9	19.9
步行	63.7	72.3	57.9	72.7
游泳	17.6	4.1	16.4	13.9
跑步	23.8	25.9	29.2	19.1
其他	13.3	9.5	11.9	13.3

表 2：2005 年某市城镇居民和农民参加体育锻炼的影响因素（%）

	城镇	农村	男	女
缺乏组织	8.8	3.6	7.0	7.4
缺乏指导	7.8	4.7	7.1	6.8
缺乏场地设施	13.2	8.0	12.1	14.1
工作忙、缺少时间	21.8	21.5	32.7	24.6
家务忙、缺少时间	9.2	20.8	17.6	10.5
体力工作多，不用参加	3.4	15.9	7.8	11.8
惰性	4.9	7.5	15.9	6.7
没兴趣	1.4	9.1	6.8	6.1

131．在各项体育项目的普及程度上，农村与城镇相比（　）

A．登山高于城镇　　B．步行低于城镇

C．自行车高于城镇　　D．健身操舞秧歌低于城镇

132．与男性相比，在女性中更普及的两个体育项目是（　）

A．球类 步行　　B．跑步 游泳

C．步行 健身操舞秧歌　　D．健身操舞秧歌 跑步

133．根据表 2，在被调查的全体人群中，选择“缺乏组织”的人占全体人群的比例可能是（　）

A．5.2％　　B．6.2％　　C．7.1％　　D．8.2％

134．无法从表 2 获得支持的判断是（　）

A．家务过多成为影响男性参加体育锻炼的第二大因素

B．惰性对女性参加体育锻炼的影响小于对男性的影响

C．无论城镇或农村，兴趣都是影响人们参加体育锻炼的最重要因素之一

D．无论城镇或农村，男或女、工作忙已成为影响人们参加体育锻炼的第一大因素

135．无法从表 1、表 2 获得支持的判断是（　）

A．农民对体育锻炼的不恰当看法和认识更普遍一些

B．与城镇居民相比，农民参加体育锻炼的项目比较单调

C．在全民健身方面，培养农民参加体育锻炼的兴趣可能比城镇居民更迫切

D．男性因工作压力放弃体育锻炼的更多一些，而女性因家务压力放弃体育锻炼更多一些

【参考答案与解析】

131．D。从表 1 可以看出，农村只有步行和跑步比城镇高，其他均低于城镇。

132．C。从表 1 横向比较四组数据即可获知。

133．C。由于选择“缺乏组织”的男性比例为 7.0％，而女性比例为 7.4％，因此全体人群中选择“缺乏组织”的人口比例一定介于这两个数之间，只有 C 选项符合这个条件。

134．C。A、B、D 三个选项都可以从表 2 当中直接获得，只有 C 选项的说法不正确。

135．D。B、C 选项均容易判断，A 选项并不好判断，但是 D 选项的后半句明显错误，因为女性因家务压力放弃体育锻炼的百分比比男性低，直接选出这个选项即可。

四、根据下面表 1、表 2 回答 136-140。

表 1：2001 至 2005 年世界主要国家和地区经济增长率比较（％）

国家和地区	2001 年	2002 年	2003 年	2004 年	2005 年	2001 至 2005 年平均增长率
世界总计	2.4	3.0	4.1	5.3	4.9	4.0
发达国家和地区	1.2	1.5	1.9	3.2	2.6	2.1
美国	0.8	1.6	2.5	3.9	3.2	2.4
欧盟	2.0	1.3	1.4	2.4	1.8	1.8
日本	0.2	-0.3	1.8	2.3	2.6	1.4
发展中国家和地区	4.1	4.8	6.7	7.7	7.4	6.3
中国	7.5	8.3	10.0	10.1	10.2	9.5
印度	3.9	4.7	7.2	8.0	8.5	6.4
俄罗斯	5.1	4.7	7.3	7.2	6.4	6.1
巴西	1.3	1.9	0.5	4.9	2.3	2.2
马来西亚	0.3	4.4	5.5	7.2	5.2	4.5

亚洲四小龙						
中国香港	0.5	1.9	3.2	8.6	7.3	4.3
中国台湾	-2.2	4.2	3.4	6.1	4.1	3.1
韩国	3.8	7.0	3.1	4.7	4.0	4.5
新加坡	-1.9	3.2	2.9	8.7	6.4	3.9

表 2：2001 至 2005 年国内生产总值居世界前 10 位国家比较（亿美元）

位次	2001 年			2005 年		
	国家和地区	国内生产总值	占世界的比重（%）	国家和地区	国内生产总值	占世界的比重（%）
	世界总计	315750	100	世界总计	443849	100
1	美国	100759	31.9	美国	124551	28.1
2	日本	41624	13.2	日本	45059	10.2
3	德国	18913	6.0	德国	27819	6.3
4	英国	14313	4.5	中国	22289	5.0
5	法国	13398	4.2	英国	21926	4.9
6	中国	13248	4.2	法国	21102	4.8
7	意大利	10904	3.5	意大利	17230	3.9
8	加拿大	7051	2.2	西班牙	11237	2.5
9	墨西哥	6221	2.0	加拿大	11152	2.5
10	西班牙	6084	1.9	巴西	7941	1.8

136．2005 年和 2001 年相比较，国内生产总值占世界比重变化幅度最大的国家是（　）

A．美国　　B．日本

C．中国　　D．法国

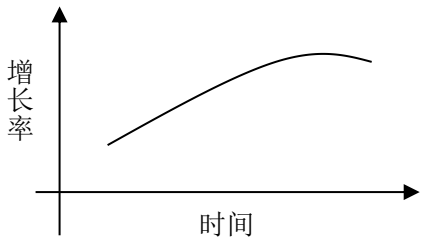

137．2001 到 2005 年间，完全符合右图曲线所显示的经济发展趋势的国家和地区有（　）

A．2 个　　B．3 个

C．4 个　　D．5 个

138．下面描述不正确的是（　）

A．从 2001 年开始，我国国内生产总值及其占世界的比重一直在上升

B．大部分国家和地区经济增速在 2001 至 2004 年不断加快，2005 年有所减缓

C．从 2001 年开始，发达国家经济增长速度一般低于主要发展中国家和地区

D．2001 至 2005 年间，香港经历了比台湾、新加坡更加剧烈的经济波动和发展

139．下列说法正确的是（　）

I．2001 至 2005 年间，与主要发展中国家相比，亚洲四小龙的经济增长相对放慢

II．2001 至 2005 年间，日本经济开始摆脱“停滞”状态，经济形势逐渐好转

III．2001 至 2005 年间，国内生产总值在世界排名的变化趋势和其占世界比重的变化趋势是一致的

A．I　　B．II　　C．I 和 II　　D．II 和 III

140．能从表 1、表 2 获得支持的说法是（　）

I．整个世界的财富越来越集中到少数几个发达国家中

II．传统的世界经济强国在世界经济中的排名和地位已经发生了根本性变化

III．主要的发展中国家在世界经济中扮演着越来越重要的角色

A．I　　B．II　　C．III　　D．I 和 II

【参考答案与解析】

135．A。美国国内生产总值占世界比重变化减少了 3.8 个百分点，它的变化幅度最大。

136．B。该增长率曲线先单调增加之后略微下降，符合这个规律的只有美国、马来西亚和中国香港 3 个国家和地区。

138．D。A 选项正确，中国国内生产总值的增长率始终保持正值且为表格所统计的所有国家中最高，因此中国国内生产总值及其占世界的比重一直在上升；B 选项正确，根据表 1 可以明显看出；C 选项正确，根据表 1 可以明显看出；D 选项不正确，因为新加坡的经济波动比香港更大。

139．C。I 说法正确，从表 1 中亚洲四小龙的平均增长率比主要发展中国家低能够得到这个结论；II 说法正确，日本在 2001、2002 两年经济增长率在 0%左右徘徊，从 2003 年开始经济增长率开始逐渐增大，经济形势逐渐好转。III 说法并不正确，英国、法国国内生产总值在世界排名均下降，但是占世界比重均上升。

140．C。由表 2 可以看出，世界的财富越来越分散到各个国家当中，所以 I 错误；世界经济强国的排名和地位没有太大变化，比如美国、日本、德国仍然占据着前三的位置，因此没有发生根本性变化，所以 II 错误；由于主要发展中国家中国和巴西国内生产总值占在世界的比重均增加，且排名上升，所以 III 正确。