2004 年国家公务员录用考试《行测》真题

注意事项

1. 行政职业能力测验共有五个部分，125 道题，总限时是 120 分钟。各部分不分别计时，但都给出了参考时限，供答题时参考。

2. 将姓名与准考证号在指定的位置上用黑色字迹的钢笔、签字笔或者圆珠笔填写，并用 2B 铅笔在准考证号对应的数字上填涂。

3. 请将题本上的条形码揭下，贴在答题卡指定位置。没有贴条形码的答题卡将按作废处理，成绩记为零分。

4. 题目应在答题卡上作答，在题本上作答一律无效。

5. 待监考老师宣布考试开始后，你才可以开始答题。

6. 监考老师宣布考试结束时，你应立即停止作答，将题本、答题卡和草稿纸都翻过来放在桌子上，待监考老师确认数量无误，发出离开指令后，方可离开考场。

7. 试题答错不倒扣分。

8. 严禁折叠答题卡。

老吴公考 App

刷题、听课、看秘笈，一网打尽！

支持 iphone、iPad 和 Android 手机

第一部分　言语理解与表达

（共 35 题，参考时限 35 分钟）

本部分包括两种类型的试题：

一、听力理解（共 20 题）。做答时间为 20 分钟。仔细听录音，回答 1～20 题。注意，选择一个与所提要求最相符合的答案。

1～20 题（略）

二、阅读理解(共 15 题)。每道题包含一段文字(或一个句子)，后面是一个不完整的陈述，要求你从四个选项中选出一个来完成陈述。注意：答案可能是完成对所给文字主要意思的提要，也可能是满足陈述中其他方面的要求，你的选择应与所提要求最相符合。

【例题】钢铁被用来建造桥梁、摩天大楼、地铁、轮船、铁路和汽车等，被用来制造几乎所有的机械，还被用来制造包括农民的长柄大镰刀和妇女的缝衣针在内的成千上万的小物品。这段话主要支持了这样一种观点，即（　　）。

A. 钢铁是一种反映物质生活水平的金属

B. 钢铁具有许多不同的用途

C. 钢铁是所有金属中最坚固的

D. 钢铁是惟一用于建造摩天大楼和桥梁的物质

解答：B

请开始答题：

21. 科学家研究发现，惟有传统中药枸杞其“固本、温平、无毒”的特性能担当“换一种方式补肾”的重任，几千年来人们对枸杞情有独钟。

这段文字中应当删去的一个词是（　　）。

A.“科学家研究发现”的“发现”

B.“惟有传统中药枸杞”的“惟有”

C.“惟有传统中药枸杞”的“传统”

D.“其‘固本、温平、无毒’的特性”的“其”

22. 放弃了宗教的人，若没有代替宗教的东西，。不过幸好除了宗教还有哲学为人类提供了获得更高价值的途径——一条比宗教提供的途径更为直接的途径，通过哲学而熟悉的更高价值，比通过宗教而获得的更高价值，甚至要纯粹得多，因为后者混杂着想像和迷信。

填入横线上最恰当的是（　　）。

A.便会很自然地去寻求哲学的帮助

B. 只好把自己限于尘世事务，而与精神事务绝缘

C.也不会感到生活有太大的变化

D. 他们照样可以保持内心的平静怡和

23. 尽管国际上对此存在很多争议，意大利文化部门还是决定用蒸馏水清洗米开朗基罗的旷世杰作——《大卫》雕像。这项工程的目的之一是除去这座高达 4．5 米的雕像上的尘土和油污。佛罗伦萨博物馆的负责人说：“这项工程并不是为了让雕像变得更好看。”意大利文化部长已经排除了干洗的可能性。

“国际上对此存在很多争议”的“此”指的是（　　）。

A.《大卫》雕像是米开朗基罗的旷世杰作

B. 这项工程是为了让雕像变得更好看

C．决定用蒸馏水清洗《大卫》雕像

D．要除去这座高达 4.5 米的雕像上的尘土和油污

24．所谓科学精神，不过是哲学上的多元主义的另一种说法而已。哲学上的多元主义，就是，否认有什么事物第一原因和宇宙、人类的什么终极目的。

填入横线上最恰当的是（　　）。

A.否认绝对真理的存在 B．认为这个世界无须认识

C.政治上权威主义的根据 D．一种绝对化的主张

25．大袋鼠是一种奇特的动物。它们平时在原野、灌木丛和森林地带活动，靠吃草为生。它们过群居生活，但没有固定的集群，常因寻找水源和食物而汇集成一个较大的群体。老鹰、蟒蛇和人们都要捕捉袋鼠，然而对袋鼠来说最大的危害莫过于干旱，幼小的袋鼠会死亡，母大袋鼠会停止孕育。

下面说法正确的是（　　）。

A.有的大袋鼠单独行动

B．大袋鼠常聚集在一起寻找水和食物

C．威胁大袋鼠最严重的是人们的捕捉

D．遇到干旱，袋鼠都会死亡

26．电子游戏为我们展现了一个不同于现实生活的新世界。人们在游戏里取得的成功是可以清晰定义，而且是可以实现的。玩家可以在游戏中控制整个世界，从而摆脱现实生活中的焦虑感，使自己的行为在虚拟世界中变得举足轻重，成为一名英雄。游戏结束，他并没有真的输掉或赢得什么东西。

这段话直接支持这样一种观点，即（　　）。

A.电子游戏完全是虚幻的东西，人们在其中不会真正得到或失去什么

B．人们可通过电子游戏在真实世界和欲望世界之间寻得一种折中

C．人们在游戏里的成功是清晰和可实现的，因而不是虚拟的

D．游戏让人们不付出代价，轻松地满足成就感

27．科学研究本质上是机会主义的，其目的不在于做或好或坏的实验，而在于解决问题，如果一个问题碰巧笨拙地解决了，那么优美的方法就永远不会找寻了。

不符合这段话意思的是（　　）。

A.科学研究不在乎方法的笨拙或优美，只要达到解决问题的目的就可以了

B．科学研究的机会主义致使优美的方法永远不会被找寻

C.科学研究的目的是解决问题

D．优美的方法不是科学研究追求的目标

28．少数孩子经历了这样的应试教育，最后还能成长为能够独立思考的人，成长为虚怀若谷、知识渊博的人，这不能不说是一个奇迹。

不符合这段话意思的是（　　）。

A.应试教育使孩子丧失独立思考能力

B．应试教育使孩子知识面狭窄

C.应试教育使孩子性情狭隘

D．赞扬少数孩子的卓尔不群

29．生态环境保护与人们的现实经济利益之间往往存在着矛盾。退耕还林、野生动植物保护等方面的政策或措施从长远来看是符合人类利益的，但常常需要牺牲一部分人的现实利益。

填入横线部分最恰当的是（　　）。

A.因此人们应当以生态环境为重

B．因此人们要有长远的眼光

C.因此矛盾不可避免

D．因此人们要有自我牺牲精神

30．“你工作多久挣的钱，才够买一个麦当劳的‘巨无霸’?”要是猛然被这样提问，多数人可能会打个愣，因为不少人通常更习惯另一种算法，即我一个月的工资够买几个“巨无霸”?这两个问题看上去是一回事，但在统计学意义上却有着明显的差别。前者是以商品来考察劳动力的价值，后者则是（　　）

A.用劳动力来考察商品的价值

B．用商品的价值来考察劳动力

C.用收入来衡量购买力的水平

D．用购买力衡量收入的水平

31．生长在水中或水边的动植物的遗体是最易被保存下来的，因为保存动植物遗体的必要条件是快速掩埋，而在淤泥不断淤积的海洋、河流乃至湖泊中，动植物的遗体以及其他东西能够被快速掩埋。

这段话主要支持了这样一种观点，即（　　）。

A.动植物遗体很容易在淤泥不断淤积的海洋、河流乃至湖泊中保存下来

B．只有生长在水中或水边的动植物的遗体才能被保存下来

C.淤泥不断淤积的海洋、河流乃至湖泊是保存动植物遗体的最佳环境

D.只要被快速掩埋，动植物遗体就能被保存

32．我国是桂花的故乡，西南、中南地区是它的原产地。现在各地都有种植。在中国战国时代，屈原的《九歌》中就曾多次出现“桂舟”、“桂酒”等词，这是最早以桂入诗的例子。陕西省勉县城南定军山武侯墓前有两株桂花，相传栽种于汉代，已有 1700 多年历史，人们称它们为“汉桂”。

从这段文字，我们可以知道的是（　　）。

A．我国栽种桂花已有 1700 多年历史

B．桂花多在我国西南、中南地区种植

C.“汉桂”是最早入诗的桂树

D.《九歌》是我国最早的诗词

33．甲：各国的国情和传统不同，但是对于谋杀和其他严重刑事犯罪实施死刑，至少是大多数人可以接受的。公开宣判和执行死刑可以有效地阻止恶性刑事案件的发生，它所带来的正面影响比可能存在的负面影响肯定大得多，这是社会自我保护的一种必要机制。乙：我不能接受你的见解。因为在我看来，对于十恶不赦的罪犯来说，终身监禁是比死刑更严厉的惩罚，而一般的民众往往以为只有死刑才是最严厉的。

对上述对话最恰当的评价是（　　）。

A.两人对什么是最严厉的刑事惩罚有不同的理解

B．两人对执行死刑的目的有不同的理解

C．两人对产生恶性刑事案件的原因有不同的理解

D．两人对是否大多数人都接受死刑有不同的理解

34．叶圣陶、郑振铎等都是江浙人，有着江浙知识分子特有的理性和宽容。他们像朱自清一样，都是新文学的热心鼓吹者，写得一手漂亮的白话散文。他们接受过五四新文化的洗礼，无论对中西之学，都取平和的一视同仁态度。

填入横线上最恰当的是（　　）。

A.传统文化的根基也很深

B．大概都不曾出洋留学

C．都有一般自由知识分子那种精英气

D．与土地的关系比较密切

35．严密的逻辑论证，历史上有一个确实的来历：公开辩论。古典时代的雅典人好辩，还有一套民主选举办法，雄辩术风行，甚至还有一个奇怪的习惯：两人争辩一件事，可以有彩金，谁辩胜就得彩金。辩证法的原意本是辩论，一方说话有漏洞，对方力图辩驳，怕输，就要严密。逻辑学显然也是从这来的。

不符合这段话意思的是（　　）。

A.雄辩术曾经在古典时代的雅典风行

B．辩证法不仅仅是为了在和别人的论辩中取得胜利

C．为一件事情争论不休在古典时代的雅典可能是很奇怪的

D.逻辑学的产生可能和古典时代的雅典人好辩有关

第一部分结束，请继续做第二部分！

第二部分　数量关系

（共 15 题，参考时限 15 分钟）

在这部分试题中，每道试题呈现一道算术式，或是表述数字关系的一段文字，要求你迅速、准确地计算出答案。你可以在草稿纸上运算。遇到难题，可以跳过暂时不做，待你有时间再返回解决它。

【例题】甲、乙两地相距 42 公里，A、B 两人分别同时从甲乙两地步行出发，A 的步行速度为 3 公里 / 小时，B 的步行速度为 4 公里 / 小时，问 A、B 步行几小时后相遇?（　　）。

A．3　　B．4　　C．5　　D．6

解答：正确答案为 D。你只要把 A、B 两人的步行速度相加，然后被甲、乙两地间距离相除即可得出答案。

请开始答题：

36．0.0495×2500＋49.5×2.4+51×4.95 的值是（　　）。

A．4.95　　B．49.5

C．495　　D．4950

37．2002×20032003-2003×20022002 的值是（　　）。

A.－60　　B．0

C．60　　D．80

38．99＋1919＋9999 的个位数字是（　　）。

A．1　　B．2

C．3　　D．7

39．南岗中学每一位校长都是任职一届，一届任期三年，那么在 8 年期间南岗中学最多可能有几位校长?（　　）。

A．2　　B．3

C．4　　D．5

40．假设五个相异正整数的平均数是 15，中位数是 18，则此五个正整数中的最大数的最大值可能为（　　）。

A．24　　B．32

C．35　　D．40

41．半径为 5 厘米的三个圆弧围成如右图所示的区域，其中 AB 弧与 AD 弧是四分之一圆弧，而 BCD 弧是一个半圆弧，则此区域的面积是多少平方厘米?（　　）。

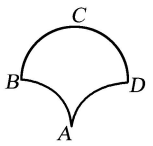

A．25　　B．10+5π

C．50　　D．50+5π

42．一个边长为 8 的正立方体，由若干个边长为 1 的正立方体组成，现在要将大立方体表面涂漆，请问一共有多少个小立方体被涂上了颜色?（　　）。

A.296　　B．324

C．328　　D．384

43．右图中心线上半部与下半部都是由 3 个红色小三角形，5 个蓝色小三角形与 8 个白色小三角

形所组成。当把上半图沿着中心线往下折叠时，有 2 对红色小三角形重合，3 对蓝色小三角形重合，以及有 2 对红色与白色小三角形重合，试问有多少对白色小三角形重合?（　　）。

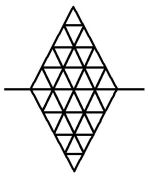

A．4　　B．5

C．6　　D．7

44．父亲把所有财物平均分成若干份后全部分给儿子们，其规则是长子拿一份财物和剩下的十分之一，次子拿两份财物和剩下的十分之一，三儿子拿三份财物和剩下的十分之一，以此类推，结果所有儿子拿到的财物都一样多，请问父亲一共有几个儿子?（　　）。

A．6　　B．8

C．9　　D．10

45．半径为 1 厘米的小圆在半径为 5 厘米的固定的大圆外滚动一周，小圆滚了几圈?（　　）。

A．4　　B．5

C．6　　D．7

46．某大学某班学生总数为 32 人。在第一次考试中有 26 人及格，在第二次考试中有 24 人及格。若两次考试中，都没有及格的有 4 人，那么两次考试都及格的人数是（　　）。

A．22　　B．18

C．28　　D．26

47．林辉在自助餐店就餐，他准备挑选三种肉类中的一种肉类，四种蔬菜中的二种不同蔬菜，以及四种点心中的一种点心。若不考虑食物的挑选次序，则他可以有多少不同选择方法?（　　）。

A．4　　B．24

C．72　　D．144

48．欲建一道长 100 尺、高 7 尺的单层砖墙，能够使用的砖块有两种：长 2 尺高 1 尺或长 1 尺高 1 尺(砖块不能切割)。垂直连接砖块必须如右图所示交错间隔，且墙的两端必须砌平整。试问至少需要多少砖块才能建成此道墙?（　　）。

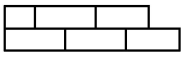

A．347　　B．350

C．353　　D．366

49．整数 64 具有可被它的个位数字所整除的性质。试问在 10 和 50 之间有多少个整数具有这种性质?（　　）。

A．15　　B．16

C．17　　D．18

50．两列对开的列车相遇，第一列车的车速为 10 米 / 秒，第二列车的车速为 12．5 米 / 秒，第二列车上的旅客发现第一列车在旁边开过时共用了 6 秒，则第一列车的长度为多少米?（　　）。

A．60　　B．75

C．80　　D.135

第二部分结束，请继续做第三部分！

第三部分　判断推理

(共 35 题，参考时限 35 分钟)

本部分包括三种类型的题目：

一、图形推理(共 10 题)。包括三种类型的题目：

1．每道题目的左边 4 个图形呈现一定的规律性。你需要在右边的所给出的备选答案中选出一个最合理的正确答案。每道题只有一个正确答案。

请看例题。

【例题 1】

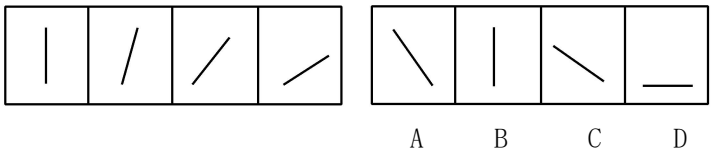

【例题 2】

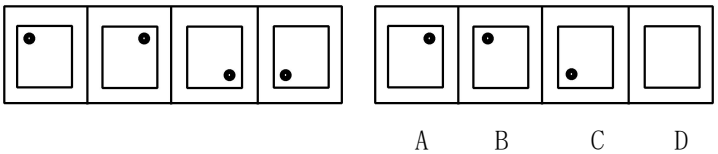

解答：在例题 1 中，最左边的图形中的直线是向上直立的，其后图形中的直线逐渐向右倒下。第 5 个图形中的直线应该恰好倒下。因此，正确的答案是 D。

在例题 2 中，黑点在正方形中顺时针移动，在第 5 个图形中，应该正好移动到左上角。因此，正确答案是 B。

请开始答题：

51.

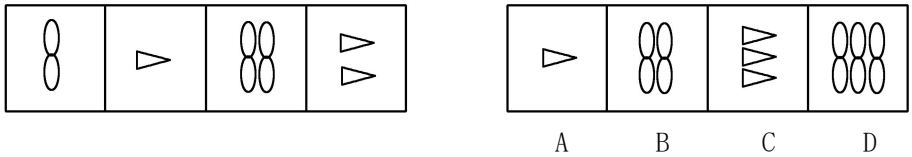

52.

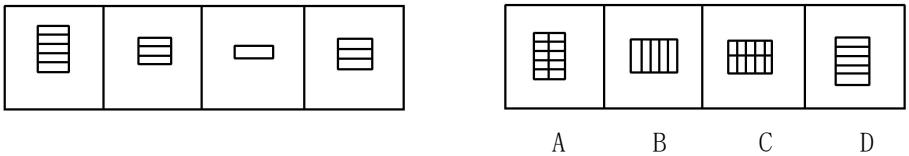

53.

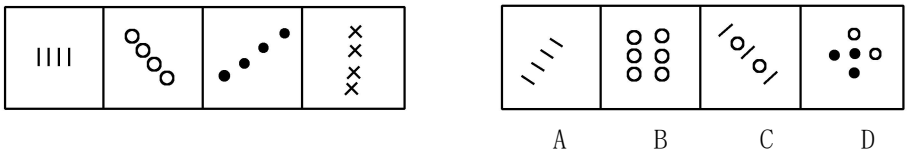

54.

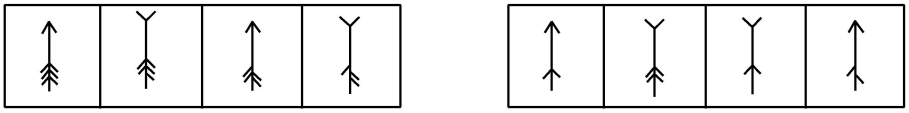

A B C D

55.

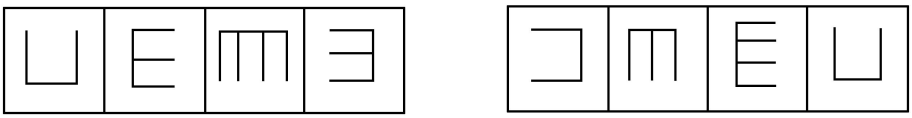

A B C D

56.

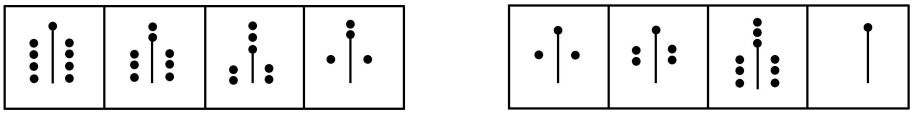

A B C D

2. 每道题包含两套图形和可供选择的 4 个图形。这两套图形具有某种相似性，也存在某种差异。要求你从四个选项中选择你认为最适合取代问号的一个。正确的答案应不仅使两套图形表现出最大的相似性，而且使第二套图形也表现出自己的特征。

【例题】

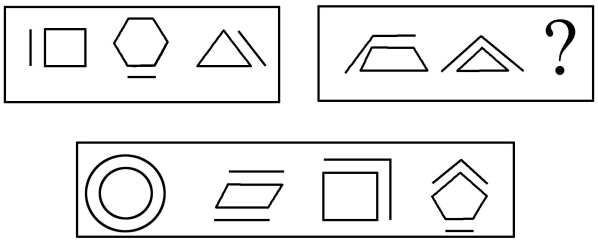

A B C D

解答：正确答案为 C。因为在第一套图形中多边形均有一条边双线，在第二套图形中均有二条相邻的边双线。

请开始答题：

57.

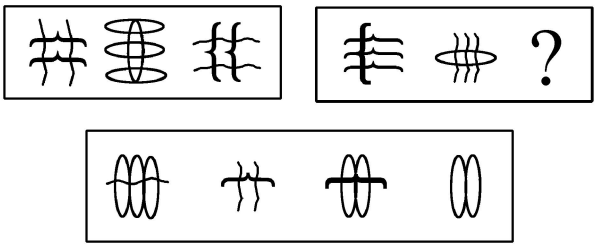

A B C D

58.

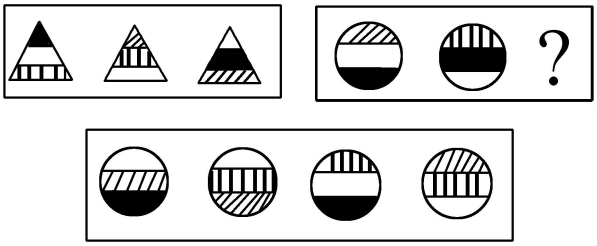

A B C D

3. 在右面的 4 个图形中，只有一个是由左面的纸板折叠而成。你需要选出正确的一个。

【例题】

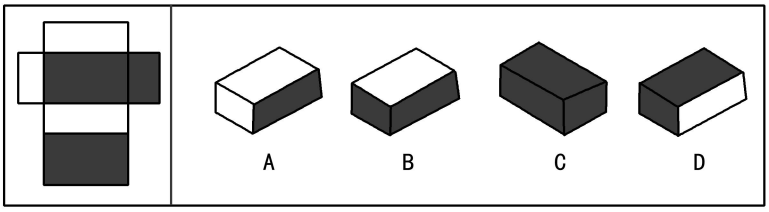

解答：只有 D 可以由左边的纸板折叠而成。因此，正确答案是 D。

请开始答题：

59.

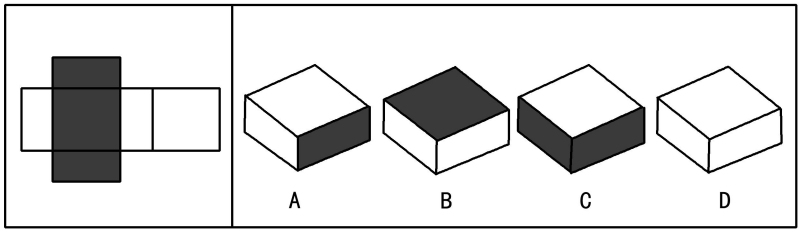

60.

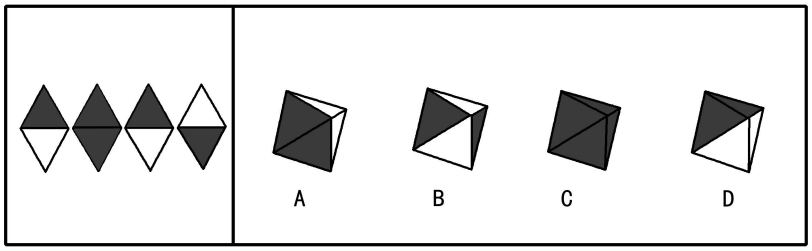

二、定义判断(共 10 题)。每道题先给出一个概念的定义，然后分别列出四种情况，要求你严格依据定义从中选出一个最符合或最不符合该定义的答案。注意：假设这个定义是正确的，不容置疑的。

请开始答题：

61. 知情权是指公民有权知道他应该知道的事情，国家应该最大限度地确认和保障公民知悉、获取信息的权利，尤其是政务信息的权利。

根据上述定义，下面与知情权无关的是（　　）。

A. 小丽是其父母从小自别人家抱养的孩子，长大后要求知道其生身父母

B.为满足公众获取信息的权利，某记者通过隐蔽拍摄的方法跟踪拍摄明星生活
C．高女士投诉某产品没有注明产品使用说明和生产日期
D．英国公众坚持要求政府对凯利自杀事件做出一个交代

62．投机是指为了以后再销售(或暂时售出)商品而购买，以期从其价格变化中获利。
根据上述定义，下列属于投机范畴的是（　　）。
A.10 年前老张承包了村里无人要的 15 亩果园，如今依靠果树发家致富
B．小刘最近买了一双皮鞋，因不喜欢样式又转卖给朋友
C．老杨以 10　03 元的价格买人 2000 股股票，以 11　00 元的价格卖出
D．王老师买了住房自住，后房价上涨，王老师卖出房屋从中获利

63．行政回避是指行政机关的公务员在行使职权过程中，因与其处理的法律事务有利害关系，为保证实体处理结果和程序进展的公平性，依法终止其职务的行使并由他人代理的一种程序法律制度。
根据上述定义，下列哪种情况违反了行政回避的规定?（　　）。
A.丈夫是妻子的直接行政领导
B．老师提拔自己的学生
C．在外任职的警察回家乡办案
D.法官审判自己朋友的儿子

64．复句是指由两个或几个意义上相关、结构上互不包含的单句形式组成的句子。
根据上述定义，下列属于复句的一项是（　　）。
A.最后的结果证明，不能仅仅依靠聪明才智，还需付出努力才会成功
B．远山青翠，晚霞夕照，是这里最美的景色
C．小张原来是个工人，他搞技术开发，是受了师傅的指点的
D．树林里，三三两两的少先队员，正在分头采集蘑菇

65．财产处分行为是指直接发生财产权移转或消灭效果的行为。财产处分行为的结果是使权利的移转，权利内容的缩小或改变，权利上设定负担以及权利消灭等。
根据上述定义，下述行为中不属于财产处分行为的是（　　）。
A.为担保一笔债务，甲公司将自己所有的房产抵押。抵押行为使甲公司对该房产的所有权受到限制
B．乙抛弃自己的电视机。抛弃行为使乙对该电视机的所有权消失
C．丙与丁订立合同，出卖丙的家传古画，并约定 7 日后丙交付古画。合同行为使丙负担着 7 日后移转古画所有权的义务
D．丁免除丙的金钱债务。免除行为使丙不必履行偿还金钱的义务

66．不当得利是指非法定原因而得到利益，致使他人受损失的事实。
根据上述定义，下述不构成甲、乙不当得利关系的是（　　）。
A．天下大雨，将甲鱼塘中的数条大鱼冲人乙的鱼塘
B．乙代为偿还甲欠丁的 2 万元
C．7 月 5 日甲乙订立购买大米的合同。7 月 10 日甲按照合同向乙付货款 2 万元。7 月 15 日乙拒绝给付大米。8 月 1 日甲单方面解除合同
D．甲欠丁 2 万元。甲将乙误认为丁，向乙偿还 2 万元

67．个人所得税的纳税人是指在中国境内有住所，或者无住所而在境内居住满一年，从中国境内和境外取得所得的个人；在中国境内无住所又不居住或者无住所而在境内居住不满一年，从中国境内取得所得的个人。
根据上述定义，下列不属于中国个人所得税的纳税人的是（　　）。

A. 亨利是美国人。应聘在“北京华尔街英语学校”任教 6 个月
B. 汤姆是英国人。应聘在“北京华尔街英语学校”任教 2 年
C. 高红是美籍华人，在回国探亲两个月内，她在美国工作的公司仍然向她支付工资
D.李扬是北京大学的教授。她在新加坡出版了一本书，得到一笔稿费

68. 考试信度是指考试的客观性，指一个考试反映考生真实水平的程度。
根据上述定义，对考试信度影响不大的一项是（　　）。
A. 同一篇作文，王老师给了 50 分，李老师却只给了 40 分
B. 许多女生都没有答对这道有关足球比赛的题目
C. 考试这天天气特别闷热，使许多同学的发挥受到影响
D. 考前李老师押中了两道大题，考后同学们都很高兴

69. 行政强制执行是指公民、法人或其他组织不履行法律规定的义务或行政机关依法所做出行政处理决定中规定的义务，有关国家机关依法强制其履行义务或达到与履行义务相同状态的行为。
根据上述定义，下列不属于行政强制执行行为的是（　　）。
A. 某税务机关对长期拖欠税费的商户店铺进行封闭，强制其缴纳税金
B. 某市人民法院拍卖一个个体户的私有财产，保证与之相关的法律文书的执行
C. 国家认监委正式对外公布了新的强制性产品认证制度，并强制执行
D. 某法院没收同市公安局的警车一部，要求其按照法律文书对胜诉方进行赔偿

70. 绝对反义词：也称互补反义词，这类反义词在意义上互相排斥，肯定甲必否定乙，肯定乙必否定甲；同时，否定甲就必肯定乙，否定乙就必肯定甲。
根据上述定义，下列属于绝对反义词的一组是（　　）。
A.完整——残缺　　B. 高兴——生气
C. 寒冷——温暖　　D. 卑微——高尚

三、逻辑判断(共 15 题)。每题给出一段陈述，这段陈述被假设是正确的，不容置疑的。要求你根据这段陈述，选择一个答案。注意，正确的答案应与所给的陈述相符合，不需要任何附加说明即可以从陈述中直接推出。

【例题】对于穿鞋来说，正合脚的鞋子比大一些的鞋子好。不过，在寒冷的天气，尺寸稍大点的毛衣与一件正合身的毛衣差别并不大。这意味着（　　）。
A.不合脚的鞋不能在冷天穿
B. 毛衣的大小只不过是式样的问题，与其功能无关
C. 不合身的衣物有时仍然有使用价值
D. 在买礼物时，尺寸不如用途那样重要

解答：只有 C 是可以从陈述中直接推出的，应选 C。

请开始答题：

71. 某国的人口调查数据表明，未婚的三十岁以上的男性超过这个年龄段的未婚女性，比例大约为十比一。这些男性中，大多数确实希望结婚。然而，明显地，除非他们中有许多人娶外国女性，否则大部分人将保持未婚。
上面论述基于下列哪个假设?（　　）。
A.移民到国外的女性比男性多
B. 与该国男性相同年龄的三十几岁的该国女性宁愿保持未婚
C.大多数未婚的该国男性不可能娶比他们年龄大的女性
D.大多数未婚的该国男性不愿意娶非本国的女性

72. 1998 年度的统计显示，对中国人的健康威胁最大的三种慢性病，按其在总人口中的发病

率排列，依次是乙型肝炎、关节炎和高血压。其中，关节炎和高血压的发病率随着年龄的增长而增加，而乙型肝炎在各个年龄段的发病率没有明显的不同。中国人口的平均年龄，在 1998 年至 2010 年之间，将呈明显上升态势而逐步进入老龄化社会。

依据题干提供的信息，推出以下哪项结论最为恰当?（　　）。

A.到 2010 年，发病率最高的将是关节炎

B．到 2010 年，发病率最高的将仍是乙型肝炎

C．在 1998 年至 2010 年之间，乙型肝炎患者的平均年龄将增大

D．到 2010 年，乙型肝炎的老年患者将多于非老年患者

73．一份犯罪调研报告揭示，某市近三年来的严重刑事犯罪案件 60％都为已记录在案的 350 名惯犯所为。报告同时揭示，严重刑事犯罪案件的作案者半数以上是吸毒者。

如果上述断定都是真的，那么，下列哪项断定一定是真的?（　　）。

A.350 名惯犯中可能没有吸毒者

B．350 名惯犯中一定有吸毒者

C．350 名惯犯中大多数是吸毒者

D．吸毒者大多数在 350 名惯犯中

74．发达国家中冠心病的发病率大约是发展中国家的三倍。有人认为，这主要归咎于发达国家中人们的高脂肪、高蛋白、高热量的食物摄入。相对来说，发展中国家较少有人具备生这种“富贵病”的条件。其实，这种看法很难成立。因为，目前发达国家的人均寿命高于 70 岁，而发展中国家的人均寿命还不到 50 岁。

以下哪项如果成立，最能加强上述反驳?（　　）。

A．统计资料显示，冠心病患者相对集中在中老年年龄段，即 45 岁以上

B．目前冠心病患者呈年轻化趋势

C．发展中国家人们的高脂肪、高蛋白、高热量食物的摄人量，无论是总量还是人均量，都在逐年增长

D．相对发展中国家来说，发达国家的人们具有较高的防治冠心病的常识和较好的医疗条件

75．有时为了医治一些危重病人，医院允许使用海洛因作为止痛药。其实，这样做是应当禁止的。因为，毒品贩子会通过这种渠道获取海洛因，对社会造成严重危害。

以下哪个如果为真，最能削弱以上的论证?（　　）。

A.有些止痛药可以起到和海洛因一样的止痛效果

B．用于止痛的海洛因在数量上与用于做非法交易的比起来是微不足道的

C．海洛因如果用量过大就会致死

D．在治疗过程中，海洛因的使用不会使病人上瘾

76．虽然菠菜中含有丰富的钙，但同时含有大量的浆草酸，浆草酸会有力地阻止人体对钙的吸收。因此，一个人要想摄人足够的钙，就必须用其他含钙丰富的食物来取代菠菜。

以下哪个如果为真，最能削弱题干的论证?（　　）。

A.大米中不含钙，但含有中和浆草酸并改变其性能的碱性物质

B．奶制品中的钙含量要高于菠菜，许多经常食用菠菜的人也食用奶制品

C．在人的日常饮食中，除了菠菜以外，事实上大量的蔬菜都含有钙

D．菠菜中除了钙以外，还含有其他丰富的营养素；另外，浆草酸只阻止人体对钙的吸收，并不阻止其他营养素的吸收

77．全国各地的电话公司目前开始为消费者提供电子接线员系统，然而，在近期内，人工接线员并不会因此减少。

除了下列哪项外，其他各项均有助于解释上述现象?（　　）。

A. 需要接线员帮助的电话数量剧增
B. 尽管已经过测试，新的电子接线员系统要全面发挥功能还需进一步调整
C. 如果在目前的合同期内解雇人工接线员，有关方面将负法律责任
D. 新的电子接线员的工作效率两倍于人工接线员。

78. 今年 M 市开展了一次前所未有的化妆品广告大战。但是调查表明，只有 25％的 M 市居民实际使用化妆品。这说明化妆品公司的广告投入有很大的盲目性。
以下哪项陈述最有力地加强了上述结论?（　　）。
A.化妆品公司做广告是因为产品供过于求
B. 去年实际使用化妆品的 M 市居民有 30％
C.大多数不使用化妆品的居民不关心其广告宣传
D.正是因为有 25％的居民使用化妆品，才要针对他们做广告

79. 第二次世界大战期间，海洋上航行的商船常常遭到轰炸机的袭击，许多商船都先后在船上架设了高射炮。但是，商船在海上摇晃得比较厉害，用高射炮射击天上的飞机是很难命中的。战争结束后，研究人员发现，从整个战争期间架设过高射炮的商船的统计资料看，击落敌机的命中率只有 4％。因此，研究人员认为，商船上架设高射炮是得不偿失的。
以下哪个如果为真，最能削弱上述研究人员的结论?（　　）。
A. 在战争期间，未架设高射炮的商船，被击沉的比例高达 25％；而架设了高射炮的商船，被击沉的比例只有不到 10％
B. 架设了高射炮的商船，即使不能将敌机击中，在某些情况下也可能将敌机吓跑
C. 架设高射炮的费用是一笔不小的投入，而且在战争结束后，为了运行的效率，还要再花费资金将高射炮拆除
D. 一般地说，上述商船用于高射炮的费用，只占整个商船的总价值的极少部分

80. 政府应该不允许烟草公司在其营业收入中扣除广告费用。这样的话，烟草公司将会缴纳更多的税金。烟草公司只好提高自己的产品价格，而产品价格的提高正好可以起到减少烟草购买的作用。
以下哪项是题干论点的前提?（　　）。
A.烟草公司不可能降低其他方面的成本来抵消多缴的税金
B. 如果它们需要付高额的税金，烟草公司将不再继续做广告
C. 如果烟草公司不做广告，香烟的销售量将受到很大影响
D.烟草公司由此所增加的税金应该等于价格上涨所增加的盈利

81. 以前有几项研究表明，食用巧克力会增加食用者患心脏病的可能性。而一项最新的、更为可靠的研究得出的结论是：食用巧克力与心脏病发病率无关。估计这项研究成果公布以后，巧克力的消费量将会大大增加。
上述推论基于以下哪项假设?（　　）。
A.尽管有些人知道食用巧克力会增加患心脏病的可能性，却照样大吃特吃
B. 人们从来也不相信进食巧克力会更容易患心脏病的说法
C. 现在许多人吃巧克力是因为他们没有听过巧克力会导致心脏病的说法
D. 现在许多人不吃巧克力完全是因为他们相信巧克力会诱发心脏病

82. 在评奖会上，A、B、C、D、E、F、G、H 竞争一项金奖。由一个专家小组投票，票数最多的将获金奖。
如果 A 的票数多于 B，并且 C 的票数多于 D，那么 E 将获得金奖。
如果 B 的票数多于 A，或者 F 的票数多于 G，那么 H 将获得金奖，以

如果 D 的票数多于 C，那么 F 将获得金奖。

如果上述断定都是真的，并且事实上 C 的票数多于 D，并且 E 并没有获得金奖，以下哪项一定是真的?（　　）。

A.H 获奖　　B．F 的票数多于 G

C．A 的票数不比 B 多　　D．B 的票数不比 F 多

83．某珠宝商店失窃，甲、乙、丙、丁四人涉嫌被拘审。四人的口供如下：甲：案犯是丙。乙：丁是罪犯。丙：如果我作案，那么丁是主犯。丁：作案的不是我。四个口供中只有一个是假的。

如果以上断定为真，则以下哪项是真的?（　　）。

A.说假话的是甲，作案的是乙　　B.说假话的是丁，作案的是丙和丁

C 说假话的是乙，作案的是丙　　D．说假话的是丙，作案的是丙

84．某律师事务所共有 12 名工作人员。(1)有人会使用计算机；(2)有人不会使用计算机；(3)所长不会使用计算机。这三个命题中只有一个是真的，以下哪项正确地表示了该律师事务所会使用计算机的人数?（　　）。

A.12 人都会使用　　B．12 人没人会使用

C.仅有一人会使用　　D．不能确定

85．亚里士多德学院的门口竖着一块牌子，上面写着“不懂逻辑者不得入内”。这天，来了一群人，他们都是懂逻辑的人。如果牌子上的话得到准确的理解和严格的执行，那么以下诸断定中，只有一项是真的。这一真的断定是（　　）。

A.他们可能不会被允许进入　　B．他们一定不会被允许进入

C．他们一定会被允许进入　　D．他们不可能被允许进入

第三部分结束，请继续做第四部分！

第四部分　基础知识

(共 20 题。参考时限 10 分钟)

根据题目要求，在四个选项中选出一个正确答案。

请开始答题：

86．根据《中国共产党章程》规定，中国共产党全国代表大会闭会期间的最高领导机关是（　　）。

A.总书记　　B．中央政治常委会

C.中央政治局　　D．中央委员会

【解析】D。根据《中国共产党章程》第二十一条规定："在全国代表大会闭会期间，中央委员会执行全国代表大会的决议，领导党的全部工作，对外代表中国共产党"，由此可见，中国共产党全国代表大会闭会期间的最高领导机关是中央委员会，答案为 D。

87．下列国家中，尚未加入欧元区的是（　）

A．西班牙　　B．比利时

C．卢森堡公国　　D．英国

【解析】D。在欧盟十五国中，欧元使用国家有十二个，它们是：比利时、德国、希腊、西班牙、法国、爱尔兰、意大利、荷兰、卢森堡、奥地利、葡萄牙和芬兰，还有英国、丹麦和瑞典三个是非欧元区国家。

88．2003 年 1 月 1 日起生效的《中华人民共和国政府采购法》所建立的政府采购制度的核心特点是（　）

A．有偿采购　　B．竞争性招标采购

C．分散采购　　D．灵活采购

【解析】B。中华人民共和国政府采购法》第 26 条规定："公开招标应作为政府采购的主要采购方式。"由此可见，竞争性招标采购成为政府采购制度的核心特点。

89．条件反射的发现者是（　）

A．巴甫洛夫　　B．弗洛伊德

C．弗鲁姆　　D．卢因

【解析】A。巴甫洛夫（1849～1936），俄国生理学家，他第一次用生理学中的"反射"概念来理解"心理性分泌"，建立了条件反射学说，其代表作是《大脑两半球活动讲义》和《动物高级神经活动客观性研究实验 20 年》；奥地利精神分析学家弗洛伊德则创立了精神分析学说，代表作有《梦的解析》等；维克托·弗鲁姆，著名心理学家和行为科学家，代表作有《工作与激励》和《领导与决策》，分别阐述了期望理论模式和领导规范模型；卢因则是团体力学理论的提出者，他是行为科学学派代表人物之一。

90．联合国安理会常任理事国进行决策的规则是（　）

A．简单多数规则　　B．绝对多数规则

C．加权多数规则　　D．全体一致规则

【解析】D。根据联合国《安全理事会暂行议事规则》，联合国安理会 5 个常任理事国对实质问题拥有否决权，只要有 1 票反对就不能通过。

91．1947 年，为了帮助欧洲经济复兴，与前苏联抗衡，美国提出了（　）

A．艾森豪威尔计划　　B．马歇尔计划

C．巴巴罗莎计划　　D．杜鲁门计划

【解析】B。二战后，欧洲经济遭受重创，于是美国为了与前苏联抗衡，向欧洲提供了大量经济援助，帮助欧洲经济复兴，这被称作“马歇尔计划”。由于当时的美国总统是杜鲁门，因此这项计划属于所谓“杜鲁门主义”政策的一部分，但并不存在“杜鲁门主义”之说。巴巴罗莎计划则指的是二战时的莫斯科保卫战。艾森豪威尔在 1947 年也已经不是美国总统。

92．与私人产品相比，公共产品的核心特征是（　）

A．强制性　　B．无偿性

C．排他性　　D．非排他性

【解析】D。私人产品顾名思义是属于私人所有，因此具有排他性，与此相对，公共产品是一定范围内的成员共有的产品，则其核心特征必然是非排他性，否则就不成其为公共产品。但公共产品未必是无偿的或强制的，也有很多公共产品是自愿有偿取得的。

93．我国政府恢复对澳门行使主权的日期是（　）

A．1999 年 7 月 1 日　　B．1999 年 12 月 31 日

C．1999 年 12 月 20 日　　D．1998 年 12 月 31 日

【解析】C。根据《中葡关于澳门问题的联合声明》，我国政府于 1999 年 12 月 20 日恢复对澳门行使主权。

94.一个国家进入老龄化国家的一个标志就是这个国家 60 岁以上的老年人口达到总人口的（　）

A．25%　　B．20%

C．15%　　D．10%

【解析】B。根据国际通行的判断标准，当一个城市或国家 60 岁以上人口所占比重达到或超过总人口数的 20%时，标志着这个城市或国家进入了“老龄化社会”。

95．中华人民共和国成立后，第一个与我国建立外交关系的西方国家是（　）

A．英国　　B．德国

C．法国　　D．瑞士

【解析】A。中华人民共和国成立后，英国与中国就建立了代办级外交关系，1972 年 3 月 13 日，英国与中国升级为大使级外交关系。1964 年 1 月，法国与中国建交。1972 年 10 月 11 日，中国与德国建交。1950 年 9 月 14 日，中国与瑞士联邦建立外交关系。题干并没有区分是代办级外交关系还是大使级外交关系，故总的来说，英国应该是第一个与我国建立外交关系的西方国家。

96．“一丝不苟”中的“丝”的本意是（　）

A．计量单位　　B．丝线

C．丝绸　　D．发丝

【解析】A。语出《儒林外史》:“见世叔-丝不苟，升迁就在指日。”故事说的是有人给知县送来五十斤牛肉，而知县一斤也没有私自收下。由此可见,“丝”的本意是计量单位，与其它三项无关。

97．京剧中的“大花脸”所属的行当是（　）

A．生　　B．旦

C．丑　　D．净

【解析】D。生行，指戏曲剧目中的男性形象，可细分为“老生”、“小生”、“武生”。旦行，指戏曲中的女性形象，可分为青衣、花旦、刀马旦、武旦、老旦、彩旦等类别。丑行，指那些滑稽幽默或相貌丑陋的人物，有男性也有女性，男性多在鼻眼间勾画豆腐块状脸谱，故又称“小花脸”。净行亦叫“大花脸”，指那些面部勾画脸谱的男性形象，有正净、副净、武净和毛净之分。

98．人类最早使用的金属是（　）

A．铜　　B．铁

C．银　　D．铅

【解析】A。由于自然界中存在有天然的青铜，所以铜是人类最早使用的金属，大约在公元前 4000 年。铁的使用大约在公元前 2000 年，其它金属的使用则更晚一些。

99．下列不属于哺乳类动物的是（　）

A．蝙蝠　　B．鲸

C．蜂鸟　　D．海豹

【解析】C。蜂鸟是属于鸟类里雨燕总目下的蜂鸟目，而鸟类与哺乳类是同一级别的，所以蜂鸟不属于哺乳类。蝙蝠、鲸和海豹均属于哺乳类。故选 C。

100．造成大气污染的有害气体是（　）

A．氮气、氧气　　B．稀有气体、二氧化碳

C．一氧化碳、二氧化硫　　D．氮气、二氧化碳

【解析】C。大气污染物主要分为有害气体及颗粒物：有害气体包括二氧化硫、氮氧化物、一氧化碳、碳氢化物、光化学烟雾和卤族元素等；颗粒物包括粉尘、酸雾和气溶胶等。可见 C 项的一氧化碳和二氧化硫都属于造成大气污染的有害气体，其它选项的气体都是无害的。

101. 中国最早的工艺百科全书是完成于 17 世纪 30 年代的《天工开物》。它的作者是（　）

A．徐霞客　　B．沈括

C．郦道元　　D．宋应星

【解析】D。宋应星（1587～1661），明代著名科学家，其代表作《天工开物》是一部总结我国明末以前农业和手工技术成就的著作，传到西方以后，欧洲人惊奇不已，称它是“中国 17 世纪的工艺百科全书”。A 项的徐霞客的代表作是《徐霞客游记》; B 项的沈括的代表作是《梦溪笔谈》; C 项的郦道元的代表作是《水经注》。

102．2003 年 5 月 7 日国务院第 7 次常务会议通过、公布，并于公布之日起施行了《突

发公共卫生事件应急条例》。该条例中规定，（　）地方人民政府应当建立和完善突发事件监测与预警系统。

A．省级以上　　B．市级以上

C．县级以上　　D．乡级以上

【解析】C。根据《突发公共卫生事件应急条例》第 14 条："国家建立统一的突发事件预防控制体系。县级以上地方人民政府应当建立和完善突发事件监测与预警系统。县级以上各级人民政府卫生行政主管部门，应当指定机构负责开展突发事件的日常监测，并确保监测与预警系统的正常运行。"

103．下面的作家是唐宋散文八大家中的四位，其中属于唐朝的一位是（　）

A．韩愈　　B．欧阳修

C．苏洵　　D．王安石

【解析】A。韩愈（768～824），唐代文学家、哲学家。欧阳修（1007～1072），北宋政治家、文学家。苏洵（1009～1066），北宋散文家。王安石（1021～1086），北宋杰出的政治家、思想家、文学家。可知只有 A 项韩愈是唐代的，其他人都是北宋的。

104．"兼听则明，偏信则暗"这句古代格言出自（　）

A.《资治通鉴》　　B.《论语》

C.《荀子》　　D.《史记》

【解析】A。据《资治通鉴》记载，唐朝时期，太宗问大臣魏征："人主何为则明，何为则暗？"魏征答道："兼听则明，偏信则暗。"这是这句话最早的出处。

105.《汉谟拉比法典》出自（　）

A．古埃及　　B．古巴比伦

C．古罗马　　D．古印度

【解析】B。《汉谟拉比法典》是古巴比伦国王汉谟拉比颁布的一部法律，是现存最早的成文法典之一。它有 282 条法律条款，包括刑事法及有关占有奴隶、结婚和离婚、偿还债务和支付工资等方面的法律。《汉谟拉比法典》现在已经成为人们研究古代巴比伦经济制度与社会法治制度的极其重要的文物，也是古代巴比伦艺术的代表。

第四部分结束，请继续做第五部分！

第五部分　资料分析

(共 20 题，参考时限 25 分钟)

所给出的图、表或一段文字均有 5 个问题要你回答。你应根据资料提供的信息进行分析、比较、计算和判断处理。

请开始答题：

一、根据下表回答问题。

1998～002 年广东省各类投资增长变化情况表(%)

年份	全社会固定资产投资增速	基本建设投资增速	更新改造投资增速	房地产开发投资增速	其他类投资增速
1998	16.1	18.7	19.5	14.1	12.3
1999	13.5	15.9	12.6	17.8	6.1
2000	6.8	6.3	11.8	20.9	9.9
2001	9.4	6.9	11.4	13.2	7.6
2002	12.5	9.1	6.2	18.5	14.9

106.从 1998 年——2002 年间，投资增速一直呈下降趋势的是（　　）。

A.全社会固定资产投资

B. 更新改造投资

C.房地产开发投资

D.其他类投资

107.下面的描述不正确的是（　　）。

A.全社会固定资产投资逐年递增

B. 基本建设投资在 2000 年的投入要低于 1999 年

C. 更新改造投资在 2002 年的投入要低于 2001 年

D. 其他类投资的增速在 2002 年增长最快

108.从上表可以看出，广东省最重视的投资是（　　）。

A.全社会固定资产投资

B. 基本建设投资

C.房地产开发投资

D.其他类投资

109.从平均水平来看，投资增长最快的年份是（　　）。

A.1998　　B. 1999

C.2001　　D. 2002

110.如果 1998 年基本建设投资为 5 亿元，则 2000 年的基本建设投资为（　　）。

A.4.69 亿元　　B. 4.92 亿元

C.5.28 亿元　　D. 5.43 亿元

二、根据下图回答问题。

2003 年第一季度五市 GDP 情况图

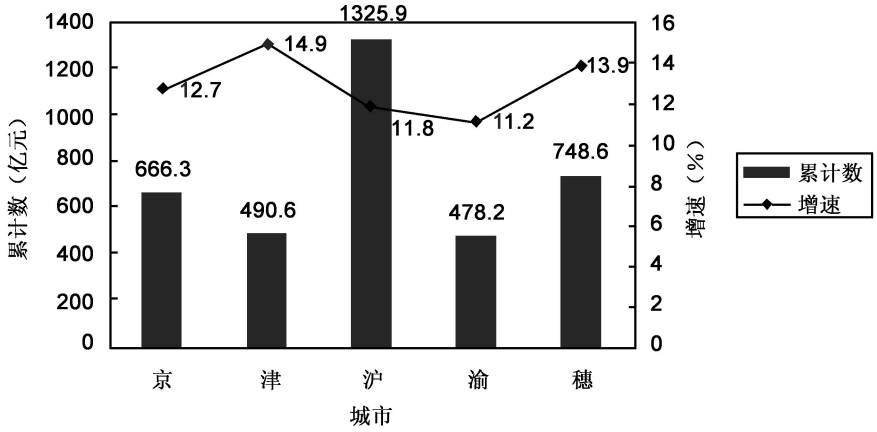

注：增速是指与去年同期相比的增加速度。北京、天津、上海、重庆、广州五市 CDP 增速比去年同期的增速分别提高了 5．4 个、2．6 个、2．2 个、2 个和 2．6 个百分点。

111. 2003 年第一季度 GDP 总量增长最快的城市是（　　）。

A. 北京　　B. 天津

C. 上海　　D．广州

112. 2003 年第一季度 GDP 总量和增速均居同一位的城市有（　　）。

A．1 个　　B．2 个

C．3 个　　D．4 个

113. 下列哪个组合的陈述可能正确?（　　）。

Ⅰ. 2003 年上述五个城市 GDP 增速均实现两位数增长

Ⅱ. 2003 年广州经济总量首次超过北京

Ⅲ. 2002 年同期重庆 GDP 总量也是第五位

A. Ⅰ　　B．Ⅰ和Ⅲ

C. Ⅰ和Ⅱ　　D. Ⅰ、Ⅱ和Ⅲ

114. 2001 年同期 GDP 总量位居第一和最后的两个城市分别是（　　）。

A. 上海和天津　　B. 上海和重庆

C．北京和广州　　D．北京和天津

115. 2002 年第一季度 GDP 总量和增速均居第四位的城市是（　　）。

A 北京　　B．天津

C. 重庆　　D．广州

三、根据下列文字资料回答问题。

2003 年 6 月份，“国房景气指数”达到 107.04，比 5 月份上升 0.76 点，比去年同期上升 2.39 点。具体的各分类指数情况如下：

6 月份竣工面积分类指数为 111.46，与 5 月份基本持平，比去年同期上升 7.42 点。1～6 月份，全国累计完成房屋竣工面积 8 187 万平方米，同比增长 40.4%，增幅比去年同期增加 20 个百分点。

6 月份资金来源分类指数为 108.47，比 5 月份上升 2.41 点，比去年同期上升 4.68 点。1～6 月份，全国房地产开发到位资金达到 5723 亿元，同比增长 48.4%，增幅比去年同期高 13.4 个百分点。

6 月份新开工面积分类指数达到 108.91，比 5 月份上升 0.17 点，比去年同期上升 3.44

点。1～6 月份，全国房地产新开工面积为 2.43 亿平方米，同比增长 31%，增幅比去年同期增加 11.2 个百分点。

6 月份商品房销售价格分类指数为 97.71，比 5 月份下降 1.23 点，比去年同期上升 3.73 点。上半年，商品房平均销售价格为 2 424 元 / 平方米，同比增长 5.4%，而去年同期是下降 0.1%。

6 月份空置面积分类指数为 96.52，与 5 月份持平，比去年同期下降 0.05 点。上半年，商品房空置面积同比增长 8.4%。

6 月份土地开发面积分类指数为 115.97，比 5 月份下降 0.64 点，比去年同期下降 2.60 点。上半年，完成土地开发面积 7144 万平方米，同比增长 40%，增幅比去年同期回落 12.7 个百分点。

116.2002 年的 1～6 月份，全国累计完成房屋竣工面积的增幅是（　　）。

A. 40.4%　　B. 38.6%

C. 20.4%　　D. 18.6%

117.与去年六月相比，增幅最大的指数是（　　）。

A.竣工面积分类指数

B. 商品房销售价格分类指数

C.资金来源分类指数

D.土地开发面积分类指数

118.与去年六月相比，下降的指数是（　　）。

A.竣工面积分类指数　　B. 资金来源分类指数

C.新开工面积分类指数　　D.土地开发面积分类指数

119.与上一个月相比，降幅最大的指数是（　　）。

A.资金来源分类指数　　B.空置面积分类指数

C. 销售价格分类指数　　D.土地开发面积分类指数

120.2001 年上半年，商品房平均销售价格是（　　）。

A.2 424 元　　B.2 299.8 元

C.2 302.1 元　　D.2 403.2 元

四、根据下列表格回答问题。

北京、上海社会消费品零售额一览表单位：亿元

		北京						上海					
		2000 年	同比增幅(%)	2001 年	同比增幅(%)	2002 年	同比增幅(%)	2000 年	同比增幅(%)	2001 年	同比增幅(%)	2002 年	同比增幅(%)
社会消费品零售总额		1443.3	9.9	593.5	10.4	1744.9	9.5	1722	8.3	1861.3	8.1	2035	9.3
按商品类别划分	食品	410.2	9.5	460	12.1	469.9	2.2	701.4	7.1	756.9	7.9	825.3	9.0
	服装	173	11.2	193.1	11.6	191.2	-1.0	230.9	9.1	247.1	7.0	268.7	8.7
	日用品	810.9	9.3	884.7	9.1	1015.2	14.8	776.6	9.0	842.3	8.5	925.1	9.8
	其他	49.2	7.4	55.7	13.2	68.6	23.2	13.1	8.1	15	14.5	15.9	6.0
按行业划分	批发零售业	1025.5	10.7	1128.3	10.0	1258	11.5	1581.3	7.4	1705.4	7.8	1836	7.7
	餐饮业	86.4	6.3	96.6	11.8	112.4	16.4	127.7	15.9	141.6	11.0	184.2	30.1
	其他	331.4	——	368.6	11.2	374.5	1.6	13	——	14.3	10.0	14.8	3.5

121. 2002 年北京市社会消费品零售总额相对于 2000 年的增幅是（　　）。

A. 9.5%　　B. 10.4%　　C. 19.9%　　D. 20.9%

122. 与 2001 年相比，2002 年北京和上海两市各类零售总额增幅最大的是（　　）。

A. 北京的食品零售　　B. 北京的服装零售

C. 上海的餐饮业　　D. 上海的日用品

123. 2000 年北京批发零售业的零售额为 1025.5 亿元，比上海少（　　）。

A. 535.8 亿元　　B. 555.8 亿元

C. 577.8 亿元　　D. 656.8 亿元

124. 2000～2002 年，下列选项中零售额增幅相对最稳定的是（　　）。

A. 上海的食品　　B. 上海的批发零售

C. 北京的食品　　D. 北京的批发零售

125. 2002 年上海食品和服装的零售总额高出北京（　　）。

A. 18.9%　　B. 42.5%　　C. 65.5%　　D. 70.6%

全部测验到此结束

2004 年《行政职业能力测验》试卷

参考答案及解析

第一部分　言语理解与表达

1～20(略)

21. D　【解析】“其”是代词，在这里指代的就是枸杞，但本句中“其”字的前面已经有“枸杞”这两个字了，所以这里的指代是多余的，应当删去。其它选项的字眼如果删去都会影响原意，故选 D。

22. B　【解析】第二句开头两个字 “不过”，与第一句话形成转折关系，而如果选 A、C 或 D，都将与第二句形成顺承的关系，因此只有选 B 才符合句子原有的语意逻辑。

23. C　【解析】从语法上说，“此”字后面最接近的一个短语就是 C，符合就近原则； 从语义上说，其它选项的内容都应该是人们的共识，只有 C 是会引起国际争议的。

24. A　【解析】从整个句子的语感来看，横线后面的“否认有什么事物第一原因和宇宙、人类的什么终极目的”就是对横线应填句子的解释，两句话是同义的， B 和 C 与此句完全无关，D 则弄反了句子的意思。因此选 A。

25. B　【解析】题干中已经说了“它们过群居生活”，排除 A； “然而对袋鼠来说最大的危害莫过于干旱”，B 也不对； 只是“幼小的袋鼠会死亡”，而不是所有的袋鼠都会死，排除 D； 故只有 B 正确。

26. D　【解析】本段话前三句说明电子游戏可以使人有成就感，最后一句则说明人们不必为此在现实世界中付出什么代价，故 D 的分析是最准确的。A 说人们在其

中不会得到什么，可是题干说明人们在其中可以成为英雄，得到成就感；但是这并不说明游戏里的成功等同于现实的了，它毕竟还是虚拟的，C 的推论欠妥；B 则是无关选项。

27.B 【解析】题干中是说“如果一个问题碰巧笨拙地解决了，那么优美的方法就永远不会找寻了”，言外之意是如果问题没有碰巧笨拙地解决，优美的方法还是可能会被找寻的，B 却直接去掉了题干中的“如果”条件句，结论太过绝对，是没有根据的。

28.D 【解析】这段话的意思在于说明应试教育的弊端，而不是赞扬少数孩子，D 抓错了重点，其它三项的意思则是相近的。

29.C 【解析】本段是典型的“总－分－总”论述模式，最后填在横线上的句子应该与首句呼应，故 C 为最佳选项。如果填其它三项，从意思上来说也没错，但在句子间的论证逻辑上衔接不够严密。

30.D 【解析】首先要弄清“我一个月的工资够买几个‘巨无霸’”的意思；“够买几个‘巨无霸’”就是购买力，因此这个问题实际就是用购买力来衡量“我一个月的工资”即收入的水平，故选 D 。

31.A 【解析】题干中说生长在水中或水边的动植物的遗体最易被保存，但这并不代表生长在其他地方的动植物的遗体绝对不能被保存，B 的推断没有根据；而快速掩埋只是动植物遗体被保存的必要条件而非充分条件，D 也不对；C 为无关选项，题干没有提到；故选 A 。

32.A 【解析】题干中说西南、中南是桂花的原产地，这并不代表现在桂花仍多种在这些地方，B 无根据；而最早入诗的桂树则是在战国时代，C 也不对；《九歌》是最早以桂入诗的例子，但它本身并不是我国最早的诗词，D 也不对。故 A 为正确答案。

33.A 【解析】本段对话的重点是乙说的话，因为甲的话中包含了多重含义，而乙只抓住了其中一点，即认为终身监禁比死刑更严厉，也就是说两人对什么是最严厉的刑事惩罚有不同的理解。其它选项的意思在甲中可以找到，但是在乙中则没有，是不恰当的。

34.A 【解析】本段话的关键词是横线后一句的“中西之学”四字，“五四新文化的洗礼”主要指的是西学，所以应该在横线上补一句有关中国传统学问的句子，故选 A，其它选项与后面一句则没有承接的关系。

35.C 【解析】本段话的意思就是 A 、B 、D 所概括的，C 恰恰把意思弄反了，为一件事情争论不休在古希腊不仅不奇怪，还很正常。

第二部分 数量关系

一、数字推理

36.C 【解析】原式＝4.95×25＋4.95×24＋4.95×51＝4.95×100＝495，故答案为 C。

37.B 【解析】设 2002 为 a，2003 为 b。原式可化为 a×bb-b×aa。计算式分别为：$\frac{bb}{abab}$ 、$\frac{aa}{abab}$ 可看出两式结果相同，故答案为 B。

38.D 【解析】三项之和的个位数与三项个位数之和的个位数相同。9＋9＋9＝27，可知三项之和的个位数为 7，故答案为 D。

39.C 【解析】在 8 年的中间 6 年有两届校长，再加上最前一年和最后一年各一届，可知最多可能有 4 届校长，故答案为 C。

40.C 【解析】设另 4 个相异正数正整数从小到大分别为 a、b、c、d，由题中五位数平均数是 15，可推知 a+b+c+d=75-18=57，令 d 取最大值，a、b、c 取最小值，则 a=1，b=2，又因为 18 为中位数，位于 a、b、c、d 的中间，所以 c 最小只能取 19，d=57-(a+b+c)=57-(1+2+19)=35，故答案为 C。

二、数学运算

41.C 【解析】答案为 C。由下图可知题中图形的面积与长方形 BEFD 面积相等。由此可知其面积为 5×10＝50。故答案为 C。

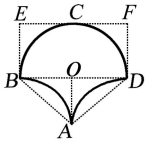

42.A 【解析】根据题意可知，正立方体总共有 8×8×8 个小立方体组成，处于最外层的小立方体全部被涂上了颜色，则没有涂上颜色的小立方体有 6×6×6 个，两者之差即为涂上颜色的小立方体的个数。故答案为 A。

43.B 【解析】由题意可知，红、蓝、白三色三角形的总个数分别为 6 个、10 个、16 个。“2 对红色小三角形重合”占了红色三角形 6 个中的 4 个，“3 对蓝色小三角形重合”占了蓝色三角形 10 个中的 6 个，“2 对红色与白色小三角形重合”占红色和白色小三角形各 2 个。由此可推知，剩下的三角形中有蓝色的 4 个，白色的 14 个，4 个蓝色与 4 个白色重合之后，白色三角形还有 10 个，只能白色与白色重合，即 10 ÷2＝5。故答案为 B。

44.C 【解析】设该父亲将财产分成为 x 份，则长子分得：$1+\frac{1}{10}(x-1)$；次子分得：$2+\frac{1}{10}\left\{x-\left[1+\frac{1}{10}(x-1)\right]-2\right\}$。且二人财产相等，可知 $1+\frac{1}{10}(x-1)=2+\frac{1}{10}\left\{x-\left[1+\frac{1}{10}(x-1)\right]-2\right\}$ 解得：x=81。则长子分到 $1+\frac{1}{10}(81-1)=9$ 份，即总财物的 $\frac{1}{9}$。再由“所有儿子拿到的财物一样多”，可知共 9 个儿子，故答案为 C。

45.B 【解析】圆的周长公式为 2πR，则大圆周长为 2π×5＝10π；小圆周长为 2π×1＝2π，所以小圆共滚了 $\frac{2\pi\times5}{2\pi\times1}$＝5（圈），故答案为 B。

46.A 【解析】由题意知第一次不及格的有 6 人，第二次不及格的有 8 人，又已知两次都不及格的人有 4 人，则两次考试刚好及格一次的人数为 6＋8－4＝10（人），则两次都及格的人数为 32－（6＋8－4）＝22（人），故答案为 A。

47.D 【解析】这是一道典型的排列组合题，p13×p24×p14＝3×4×3×4＝144，故答案为 D。

48.C 【解析】从题意可以推知要使使用的砖块最少，应该尽量使用大砖，第一层使用大砖，需要 50 块；第二层由于必须交错间隔，所以必须要使用小砖，而使用最少的小砖的惟一方法是两端使用小砖；第三层也用大砖，仍要 50 块，第

四层类似第二层，依此类推，共七层。故最后使用的砖块数为 50＋51＋50＋51＋50＋51＋50＝353（块），故答案为 C。

49.C 【解析】0 不能作除数，排除 20、30、40，符合条件的有 11、12、15、21、22、24、25、31、32、33、35、36、41、42、44、45、48 共 17 个，故答案为 C。

50.D 【解析】设第一列车长度为 x，而车速为（12.5＋10）＝22.5 米 / 秒，那么在 6 秒的时间内，第一列车行驶的长度为 x=6×（12.5＋10）＝135 米，故答案为 D。

第三部分 判断推理

一、图形推理

51.D 【解析】观察整套图形可以发现，图形的规律是图案是间隔着递增的，依此规律可知答案为 D。

52.D 【解析】答案为 D。观察图形可以发现，图案以中间第三个为对称轴，左右图案相同，故答案为 D。

53.A 【解析】观察图形可以发现，四幅图案均由 4 个形状相同的小图构成，对照选项，A 符合这一规律，故答案为 A。

54.D 【解析】观察图形可以发现，图案下面的斜线段逐渐递减，且变化规律为图形下半部分依次呈左下右上的顺序递减，依此规律，故答案为 D。

55.D 【解析】观察图形可以发现，图形是以第三幅图形为对称轴，左右图形对称，依此规律，故答案为 D。

56.D 【解析】观察图形可以发现，该套图中的每一个图都由上下两部分组成，上半部分的变化规律为先递增后递减，下半部分的规律为递减，由此可推知 D 选项正确。

57.A 【解析】观察图形可以发现，每个图形都是由四条或开或闭曲线相交构成，依此规律，故选 A。

58.B 【解析】观察图形可以发现，前幅图形图案的组合规律为三白，两黑，两竖条，两斜条，前后两幅图形规律一致，依此规律可知答案为 B。

59.A 【解析】观察左图，可知其折叠之后应有两个相对小长方形是黑的。B、C、D 项中能看到的相邻的小三角形或者全为黑，或者全为白，都不能使小长方形有两个相对的是黑色，故答案为 A。

60.B 【解析】此题可用排除法，观察左图，可知其折叠之后色块的颜色组合为白黑白黑，依此规律可排除 A、C、D。故答案为 B。

二、定义判断

61.B 【解析】知情权是指公民有权知道他“应该知道”的事情，而 B 的明星生活属于他人隐私，并不是人们“应该知道”的，因此与知情权无关。A 的小丽要求知道其生身父母，C 的高女士要求知道产品的使用说明和生产日期，D 的英国公众要求知道政府事件的真相，这些都是公众“应该知道”的事情。

62.C 【解析】投机的定义关键是购买商品的目的就是为了通过同一商品的“再销售”，从而获利。C 的老杨买股票正是出于此目的，因此是投机。而 A 的老张承包的是果园，使其获利的是果树，可排除；B 的小刘是因为不喜欢皮鞋的样式才卖给朋友，并不是想从价格变化中获利；D 的王老师买住房则是首先为了自住，不是为了销售才买房，故都不属于投机。

63.A 【解析】《国家公务员暂行条例》设专章专门规定了回避制度，该法第十二章第 61 条规定：“国家公务员之间有夫妻关系、直系血亲关系、三代以内旁系血亲

以及近姻亲关系的，不得在同一机关担任双方直接属于同一行政首长的职务或者有直接上下级领导关系之职务，也不得在其中一方担任领导职务的机关从事监察、审计、人事、财务工作。” 回避制度的内容从其范围而言，包括亲属回避、地区回避和公务回避。亲属回避和地区回避主要适用于内部行政行为程序，即人事任职程序。因此 A 项属于违规。C 项不属人事调动，无须回避；B、D 项均不属于规定中的回避范围。

64.C 【解析】C 是由两个符合定义的单句组成的复句，第一句是“小张原来是个工人”，第二句是“他搞技术开发，是受了师傅的指点的”。A 和 B 的句子之间都存在结构上相互包含的问题，A 的“最后的结果证明”包含了后面两句，B 的“是这里最美的景色”则包含了前面两句。D 只是一个单句，逗号隔开的只是句子的不同成分而已。

65.A 【解析】由定义可知，财产处分行为是指直接发生财产权转移或消灭效果的行为，A 的甲公司将房产抵押的行为只是为债务担保，而不是直接将财产权转移了。其它三项中，财产权都直接发生了转移，因此属于财产处分行为。

66.B 【解析】A 中因为大雨使乙获利，甲受损； C 中乙先拿到货款却拒绝给付大米，自己获利，使甲受损； D 中乙是因为被甲误认为丁才获得两万元，丁受损；这三项都符合不当得利的定义。而 B 中乙代为偿还甲欠丁的钱是在三方都知道的情况下，这其中并没有任何一方是因非法原因获利且致使他人受损，因此不构成不当得利关系。

67.C 【解析】C 的高红在中国境内只是探亲两个月，既无自己的住所，居住又不满一年，且没有从中国境内取得所得，所以不是个人所得税的纳税人。A 和 B 都从中国境内取得所得，D 是北京大学的教授，因此应该在中国境内有住所或者在境内居住满一年，所以他们都是个人所得税的纳税人。

68.B 【解析】A 中同一篇作文由不同的老师评分，主观性很强，使考试的客观性大受影响，也就是影响了考试信度。C 中天气影响了很多考生的发挥，使得考试并不能反映考生的真实水平，也影响了考试信度。D 中李老师考前押中了题，显然该考试也不能反映考生的真实水平了，所以也影响了考试信度。所以只有 B 与考试信度无关。

69.C 【解析】行政强制执行是在公民、法人或其他组织不履行法律规定的义务或行政机关依法做出的行政处理决定中规定的义务的情况下才实施的行为，C 中并不存在这样的公民、法人或其他组织，因此国家认监委的行为不是行政强制执行行为。A 中的长期拖欠税费的商户店铺，B 中的个体户，D 中的公安局则都有“不履行法律规定的义务或行政机关依法做出的行政处理决定中规定的义务”的行为，因此税务机关或法院的相关行为也就是行政强制执行行为。

70.A 【解析】B 的高兴和生气只是诸多表达心情的词语中的两个，除了这两种情绪之外，人们还有很多其它的情绪，如沉闷、狂喜等，所以这两个词构不成绝对反义词；C 的寒冷和温暖是表示气温的众多词语中的两个，除此之外还有炎热、凉爽等，所以这两个词也构不成绝对反义词；D 的卑微和高尚是形容人的品格的词语，但也有很多人是既不卑微，也不高尚，所以这两个词也构不成绝对反义词。只有 A 的完整和残缺，一旦完整就必然不是残缺的，一旦残缺就必不完整，所以它们是绝对反义词。

三、逻辑判断

71.D 【解析】答案为 D。由题意知，未婚的三十岁以上的男性超过这个年龄段的未婚女性，而男性确实想结婚，比较合适的原因是未婚的该国男性不愿意娶非本国女性，与命题中“除非他们中有许多娶外国女性，否则大部分将保持未婚”的题意相符，故选 D。

72.C 【解析】由题意知“中国人口的平均年龄，在 1998 年至 2010 年之间，将呈明显上升态势而逐步进入老龄化社会”。乙型肝炎的患者也逃不开这一必然趋势，可知到 2010 年乙型肝炎的老年患者将增多，而非老年患者乙型肝炎的发病率没有大的变化，所以乙型肝炎患者的平均年龄将增大，选 C。

73.A 【解析】由题干知，严重刑事犯罪案件 60％都是由 350 名惯犯所为，那么剩下的 40％犯罪案件的作案者肯定高于 350 人，又“严重犯罪案件的作案者半数以上是吸毒者”，而作案者的半数可能高于 350 人，因此可以推知在 350 名惯犯中可能没有吸毒者，故答案为 A。

74.A 【解析】由题干“发达国家的人均寿命高于 70 岁，而发展中国家的人均寿命还不到 50 岁”，且知食物摄入不是冠心病的主要病因，可推知冠心病相对集中在中老年年龄段，故答案为 A。

75.B 【解析】此题可用排除法。A、C 两项加强了题干论点，D 项是对海洛因用途的总结，不能削弱毒品贩子通过医院渠道获取海洛因的论点，只有 B 项符合题意，故答案为 B。

76.A 【解析】假设 A 成立，则人们在吃菠菜时仍然能对菠菜中丰富的钙良好吸收，人们不必用其他含钙丰富的食物来取代菠菜，则是对题干的支持和肯定，B、C、D 可排除，故答案为 A。

77.D 【解析】由题意知，人工接线员并不会因电子接线员系统而在近期内有所减少。A、B、C 项都能对此现象进行合理解释，故只有 D 项为正确答案。

78.C 【解析】由题意知“化妆品公司的广告投入有很大的盲目性”和“广告的有效性低”，只有 C 项说明化妆品广告对大多数市民是没有影响的，且能对该结论进行佐证。故答案为 C。

79.A 【解析】由题意知，研究人员认为“商船上架设高射炮是得不偿失的”。C、D 两项是对研究人员观点的支持，可排除，A、B 项都能削弱上述观点，但 B 项中“有可能”语气较弱，A 项则用数据对上述观点进行反驳，更具说服力，故答案为 A。

80.A 【解析】由题干知：烟草公司由于在其营业收入中不能扣除广告费用，因而缴纳更多的税金，烟草公司只能提高产品的价格，只有 A 项支持了上述观点，B、C、D 不能说明这个原因，故答案为 A。

81.D 【解析】由题意知，以前研究认为“食用巧克力会增加食用者患心脏病的可能性”。新结论是：“食用巧克力与心脏病发病率无关”。只有假设 D 项成立，才能推出“研究成果公布后，巧克力的消费量将会大大增加”的结论，故答案为 D。

82.C 【解析】根据题意，由于事实上 C 的票数多于 D，并且 E 没有获金奖，从假设一可以推出 A 的票数不比 B 多，故答案为 C。

83.B 【解析】假设甲所说是假，则乙丙丁都为真，显然与题干矛盾，故甲所言是真，依此假设乙、丙、丁所说是假，然后看剩下三人所言与题干有无矛盾，容易得出只有丁所说是假，故答案为 B。

84.D 【解析】若（1）为真，则（2）和（3）中必有一个为真，与题意不符；若（3）为

真，则（2）必为真，也与题意不符合，故可推知只有（2）是真，但无法确定会使用计算机的人数，故答案为 D。

85.C 【解析】由“不懂逻辑者不得入内”的牌子可知，并未对懂逻辑者进行规定，故可推知答案为 C。

第四部分 基础知识

86.D 【解析】根据《中国共产党章程》第二十一条规定：“在全国代表大会闭会期间，中央委员会执行全国代表大会的决议，领导党的全部工作，对外代表中国共产党”，由此可见，中国共产党全国代表大会闭会期间的最高领导机关是中央委员会，答案为 D。

87.D 【解析】在欧盟十五国中，欧元使用国家有十二个，它们是：比利时、德国、希腊、西班牙、法国、爱尔兰、意大利、荷兰、卢森堡、奥地利、葡萄牙和芬兰，还有英国、丹麦和瑞典三个是非欧元区国家，所以本题答案为 D。

88.B 【解析】中华人民共和国政府采购法》第二十六条规定：“公开招标应作为政府采购的主要采购方式。”由此可见，竞争性招标采购成为政府采购制度的核心特点。

89.A 【解析】巴甫洛夫(1849～1936)，俄国生理学家，他第一次用生理学中的“反射”概念来理解“心理性分泌”，建立了条件反射学说，其代表作是《大脑两半球活动讲义》(1927)和《动物高级神经活动客观性研究实验 20 年》(1923)。奥地利精神分析学家弗洛伊德则创立了精神分析学说，代表作有《梦的解析》等。维克托·弗鲁姆（Victor H. Vroom），著名心理学家和行为科学家，代表作有《工作与激励》（1964）和《领导与决策》（1973），分别阐述了期望理论模式和领导规范模型。卢因则是团体力学理论的提出者，他是行为科学学派代表人物之一。正确答案为 A。

90.D 【解析】根据联合国《安全理事会暂行议事规则》，联合国安理会 5 个常任理事国对实质问题拥有否决权，只要有 1 票反对就不能通过。故选 D； 其它三项则无根据，为干扰选项。

91.B 【解析】二战后，欧洲经济遭受重创，于是美国为了与前苏联抗衡，向欧洲提供了大量经济援助，帮助欧洲经济复兴，这被称作“马歇尔计划”。由于当时的美国总统是杜鲁门，因此这项计划属于所谓“杜鲁门主义”政策的一部分，但并不存在“杜鲁门主义”之说。巴巴罗莎计划则指的是二战时的莫斯科保卫战。艾森豪威尔在 1947 年也已经不是美国总统。所以本题选 B。

92.D 【解析】私人产品顾名思义是属于私人所有，因此具有排他性，与此相对，公共产品是一定范围内的成员共有的产品，则其核心特征必然是非排他性，否则就不成其为公共产品。但公共产品未必是无偿的或强制的，也有很多公共产品是自愿有偿取得的。故选 D。

93.C 【解析】根据《中葡关于澳门问题的联合声明》，我国政府于 1999 年 12 月 20 日恢复对澳门行使主权，正确答案为 C。

94.B 【解析】根据国际通行的判断标准，当一个城市或国家 60 岁以上人口所占比重达到或超过总人口数的 20%时，标志着这个城市或国家进入了“老龄化社会”，故答案为 B。

95.A 【解析】中华人民共和国成立后，英国与中国就建立了代办级外交关系，1972 年 3 月 13 日，英国与中国升级为大使级外交关系。1964 年 1 月,法国与中国建交。1972 年 10 月 11 日,中国与德国建交。1950 年 9 月 14 日， 中国与瑞

士联邦建立外交关系。题干并没有区分是代办级外交关系还是大使级外交关系，故总的来说，英国应该是第一个与我国建立外交关系的西方国家。

96.A 【解析】语出《儒林外史》:“见世叔-丝不苟，升迁就在指日。”故事说的是有人给知县送来五十斤牛肉，而知县一斤也没有私自收下。由此可见，“丝”的本意是计量单位，与其它三项无关。

97.D 【解析】生行，指戏曲剧目中的男性形象，可细分为“老生”、“小生”、“武生”。旦行，指戏曲中的女性形象，可分为青衣、花旦、刀马旦、武旦、老旦、彩旦等类别。丑行，指那些滑稽幽默或相貌丑陋的人物，有男性也有女性，男性多在鼻眼间勾画豆腐块状脸谱，故又称“小花脸”。净行亦叫“大花脸”，指那些面部勾画脸谱的男性形象，有正净、副净、武净和毛净之分。故选 D。

98.A 【解析】由于自然界中存在有天然的青铜，所以铜是人类最早使用的金属，大约在公元前 4000 年。铁的使用大约在公元前两千年，其它金属的使用则更晚一些，所以正确答案为 A。

99.C 【解析】蜂鸟是属于鸟类里雨燕总目下的蜂鸟目，而鸟类与哺乳类是同一级别的，所以蜂鸟不属于哺乳类。蝙蝠、鲸和海豹均属于哺乳类。故选 C。

100.C 【解析】大气污染物主要分为有害气体及颗粒物：有害气体包括二氧化硫、氮氧化物、一氧化碳、碳氢化物、光化学烟雾和卤族元素等；颗粒物包括粉尘、酸雾和气溶胶等。可见 C 的一氧化碳和二氧化硫都属于造成大气污染的有害气体，其它选项的气体都是无害的。

101.D 【解析】宋应星(1587～1661)，明代著名科学家，其代表作《天工开物》是一部总结我国明末以前农业和手工技术成就的著作，传到西方以后，欧洲人惊奇不已，称它是“中国 17 世纪的工艺百科全书”。A 的徐霞客的代表作是《徐霞客游记》；B 的沈括的代表作是《梦溪笔谈》；C 的郦道元的代表作是《水经注》。

102.C 【解析】根据《突发公共卫生事件应急条例》第十四条：“ 国家建立统一的突发事件预防控制体系。县级以上地方人民政府应当建立和完善突发事件监测与预警系统。县级以上各级人民政府卫生行政主管部门，应当指定机构负责开展突发事件的日常监测，并确保监测与预警系统的正常运行。”可知正确答案为 C。

103.A 【解析】韩愈（768～824），唐代文学家、哲学家。欧阳修（1007～1072），北宋政治家、文学家。苏洵(1009～1066)，北宋散文家。王安石（1021～1086），北宋杰出的政治家、思想家、文学家。可知只有 A 韩愈是唐代的，其他人都是北宋的。

104.A 【解析】据《资治通鉴》记载，唐朝时期，太宗问大臣魏征：“人主何为则明，何为则暗？”魏征答道：“兼听则明，偏信则暗。”这是这句话最早的出处。故选 A。

105.B 【解析】《汉谟拉比法典》是古巴比伦国王汉谟拉比颁布的一部法律，是现存最早的成文法典之一。它有 282 条法律条款，包括刑事法及有关占有奴隶、结婚和离婚、偿还债务和支付工资等方面的法律。《汉谟拉比法典》现在已经成为人们研究古代巴比伦经济制度与社会法治制度的极其重要的文物，也是古代巴比伦艺术的代表。故选 B。

第五部分 资料分析

106.B 【解析】由图表可见，更新改造投资增速从 1998 年至 2002 年的数据是 19.5%－12.6%－11.8%－11.4%－6.2%，一直呈下降趋势，其它投资则时增时减，所以正确答案为Ｂ。

107.A 【解析】由图表可见，全社会固定资产投资增速从 1998 年至 2002 年的数据是 16.1%－13.5%－6.8%－9.4%－12.5%，并非逐年递增，故Ａ不对。基本建设投资在 2000 年的增速为 6.3％，低于 1999 年的 15.9％，所以Ｂ正确；更新改造投资增速在 2002 年为 6.2%，低于 2001 年的 11.4％，Ｃ正确；其他类的投资增速在 2002 年达到 14.9％，比之前的年份都快，Ｄ也正确。故本题选Ａ。

108.C 【解析】由图表可见，房地产开发投资增速每年都超过 10％，比其它各类投资增长都快，所以应该可以说广东省最重视的投资是房地产开发投资。

109.A 【解析】1998 年投资增长的平均水平是（16.1＋18.7＋19.5＋14.1＋12.3）％／５＝16.14％；1999 年投资增长的平均水平是（13.5＋15.9＋12.6＋17.8＋6.1）％／５＝13.18％；2001 年投资增长的平均水平是（9.4＋6.9＋11.4＋13.2＋7.6）％／５＝9.7％；2002 年投资增长的平均水平是（12.5＋9.1＋6.2＋18.5＋14.9）％／５＝12.24％，对比可知，1998 年的增长最快。

110.D 【解析】1998 年基本建设投资 5 亿元之后，1999 年增长了 15.9％，到 2000 年又下降到 6.3％，也就是说下降了 15.9％－6.3％=9.6％，将 5×（1+9.6％）=5.43（亿元），故选 D。

111.C 【解析】所谓 GDP 总量，指的就是 GDP 的累计数，也就是图表中用黑色柱状表示的部分，由图表可见，2003 年第一季度黑色柱状图最高的城市是上海，故选 C。

112.C 【解析】由图表可见，2003 年第一季度 GDP 总量从高到低依次排列为沪－穗－京－津－渝，增速从高到低依次排列则为津－穗－京－沪－渝，二者均居同一位的城市有三个，即穗，京和渝，分别居第二、三、五位，故选Ｃ。

113.D 【解析】由图表可见，2003 年第一季度五市ＧＤＰ增速均实现两位数增长，所以全年实现两位数增长也是完全有可能的，也就是说Ⅰ是有可能的；第一季度广州经济总量（748.6 亿元）已经超过北京（666.3 亿元），那么全年超过北京也是有可能的，即Ⅱ也是有可能的；2003 年第一季度五市ＧＤＰ总量中，重庆是第五位，五市的增速又相差不远，所以 2002 年同期重庆ＧＤＰ总量也可能是第五位，Ⅲ也有可能。故三个陈述都有可能，Ｄ为正确答案。

114.A 【解析】由图表可见，北京市 2003 年第一季度ＧＤＰ增速为 12.7％，又知增速比去年同期提高了 5.4 个百分点，因此北京市 2002 年第一季度ＧＤＰ增速为（12.7-5.4）%=7.3％； 而北京市 2003 年第一季度 GDP 总量为 666.3（亿元），可以算出北京市 2001 年第一季度 GDP 总量为 666.3÷（1+12.7％）÷（1+7.3％）=551（亿元）。同理可算出其它四市的 2001 年同期 GDP 总量，分别为 380，1082，394，591（亿元）。可见其中最高的是上海，最低的是天津，故选 A。

115.C 【解析】用与上题同样的方法可算出 2002 年第一季度五市的 GDP 总量分别是 591，427，1186，430，657（亿元），增速分别为 7.3%，12.3%，9.6%，9.2%，11.3%，所以二者均居第四位的重庆，故选 C。

116.C 【解析】文中指出 2003 年 1～6 月份，全国累计完成房屋竣工面积同比增长 40.4%，增幅比去年同期增加 20 个百分点，可知 2002 年 1～6 月份全国累计完成房屋竣工面积的增幅为（40.4－20）%=20.4%，故选 C。

117.A 【解析】文中指出，与去年 6 月相比，竣工面积分类指数上升 7.42 点，商品房销售价格分类指数上升 3.73 点，资金来源分类指数上升 4.68 点，土地开发面积分类指数下降 2.60 点,所以增幅最大的就是 A 的竣工面积分类指数。

118.D 【解析】文中指出，与去年 6 月相比，竣工面积分类指数上升 7.42 点，资金来源分类指数上升 4.68 点，新开工面积分类指数上升 3.44 点，土地开发面积分类指数下降 2.60 点，所以只有 D 的土地开发面积分类指数是下降的。

119.C 【解析】文中指出，与上月相比，资金来源分类指数上升 2.41 点，空置面积分类指数是持平的，销售价格分类指数下降 1.23 点，土地开发面积分类指数下降 0.64 点，所以降幅最大的是 C 的销售价格分类指数。

120.C 【解析】文中指出，“2003 年上半年商品房平均销售价格为 2 424 元/平方米，同比增长 5.4%，而去年同期是下降 0.1%”，所以 2001 年上半年商品房平均销售价格就为 2 424÷（1+5.4%）÷（1－0.1%）=2 302.1（元/平方米），故选 C。

121.D 【解析】由图表可知，2002 年北京市社会消费品零售总额为 1 744.9 亿元，2000 年为 1 443.3 亿元，所以增幅为（1 744.9－1 443.3）÷1 443.3=20.9%，故选 D。

122.C 【解析】由图表知，与 2001 年相比，2002 年北京的食品零售增幅为 2.2%，北京的服装零售增幅为－1.0%，上海的餐饮业增幅为 30.1%，上海的日用品增幅为 9.8%，增幅最大的是 C 上海餐饮业。

123.B 【解析】由图表可知，2000 年上海批发零售业的零售额为 1 581.3 亿元，北京的为 1 025.5 亿元，相差 1581.3－1 025.5=555.8（亿元），故选 B。

124.B 【解析】由图表可知，2000～2002 年，上海的食品零售额增幅依次为 7.1%，7.9%，9.0%，上海的批发零售业的零售额增幅依次为 7.4%，7.8%，7.7%，北京的食品零售额增幅依次为 9.5%，12.1%，2.2%%，北京的批发零售业的零售额增幅依次为 10.7%，10.0%，11.5%。可见其中相对最稳定的是 B 上海的批发零售业。

125.C 【解析】2002 年上海食品和服装零售总额为 825.3+268.7=1 094（亿元），北京食品和服装零售总额为 469.9+191.2=661.1（亿元），上海高出北京（1 094-661.1）÷661.1=65.5%，故选 C。